KSEEB

FOR 2021 EXAM

SOCIAL SCIENCE

CLASS 10

MAP BASED MCQ's

(MULTIPLE CHOICE QUESTIONS)

KANNADA VERSION

As Per New Pattern by the KSEEB

prasanth kumar royal's

I. ಈ ಕೆಳಗಿನ ಪ್ರತಿಯೊಂದು ಪ್ರಶ್ನೆಗಳಿಗೆ / ಅಪೂರ್ಣ ಹೇಳಿಕೆಗಳಿಗೆ ನಾಲ್ಕು ಆಯ್ಕೆಗಳನ್ನು ನೀಡಲಾಗಿದೆ. ಅವುಗಳಲ್ಲಿ ಸರಿಯಾದ ಉತ್ತರವನ್ನು ಆರಿಸಿ ನಿಮಗೆ ನೀಡಿರುವ ಉತ್ತರಪತ್ರಿಕೆ ಓ.ಎಂ.ಆರ್. (OMR) ನಲ್ಲಿ ಸರಿಯಾದ ಆಯ್ಕೆಯನ್ನು ಕಪ್ಪು / ನೀಲಿ ಬಾಲ್ ಪಾಯಿಂಟ್ ಪೆನ್‌ನಿಂದ ಶೇಡ್ ಮಾಡಿರಿ.

1. ಈ ಭಾರತದ ನಕ್ಷೆಯಲ್ಲಿ ಗುರುತಿಸಿದ ಪ್ರದೇಶ?

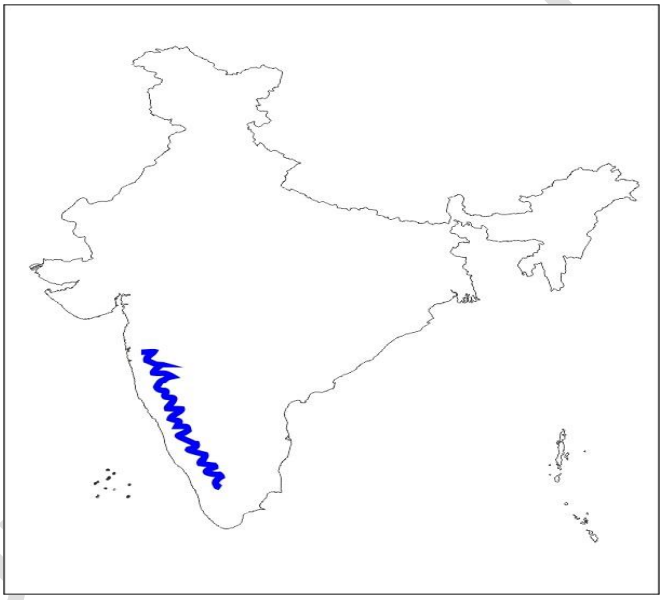

a) ಪೂರ್ವಘಟ್ಟಗಳು

b) ಪಶ್ಚಿಮ ಘಟ್ಟಗಳು

c) ಕೆನರಾ ತೀರ

d) ಕೋರಮಂಡಲ ತೀರ

2. ಈ ಭಾರತದ ನಕ್ಷೆಯಲ್ಲಿ ಗುರುತಿಸಿದ ಪ್ರದೇಶ?

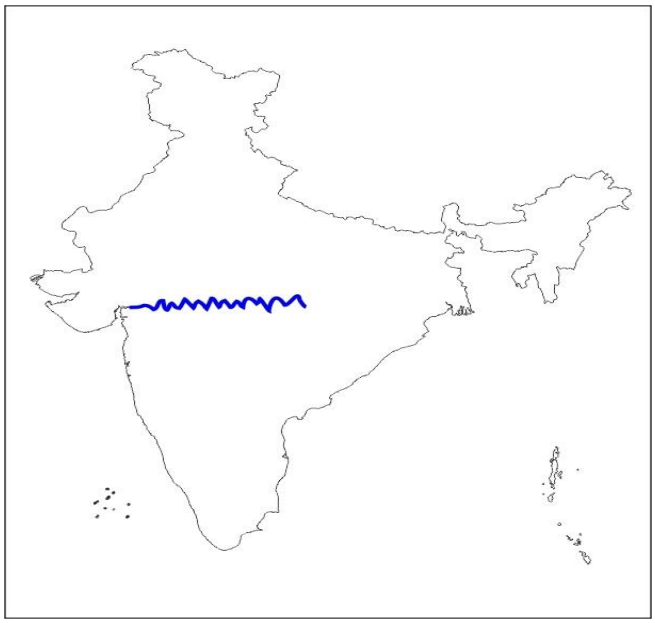

a) ಸಾತ್ಪುರ ಪರ್ವತ ಶ್ರೇಣಿ

b) ನಾಗಾ ಬೆಟ್ಟಗಳ ಸಾಲು

c) ವಿಂದ್ಯಾ ಪರ್ವತ ಸಾಲು

d) ಅರಾವಳಿ ಪರ್ವತ ಸಾಲು

prasanth kumar royal's

3. ಈ ಭಾರತದ ನಕ್ಷೆಯಲ್ಲಿ ಗುರುತಿಸಿದ ಪ್ರದೇಶ?

a) ಸಾತ್ಪುರ ಪರ್ವತ ಶ್ರೇಣಿ

b) ನಾಗಾ ಬೆಟ್ಟಗಳ ಸಾಲು

c) ವಿಂದ್ಯಾ ಪರ್ವತ ಸಾಲು

d) ಅರಾವಳಿ ಪರ್ವತ ಸಾಲು

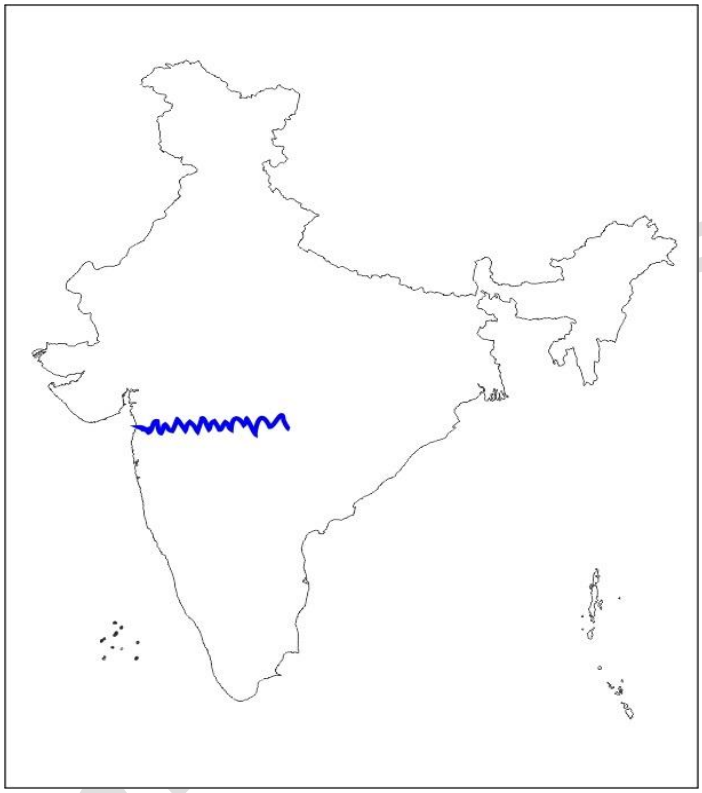

4. ಈ ಭಾರತದ ನಕ್ಷೆಯಲ್ಲಿ ಗುರುತಿಸಿದ ಪ್ರದೇಶ?

a) ಆನೈಮುಡಿ

b) ಮುಳ್ಳಯ್ಯನಗಿರಿ ಬೆಟ್ಟ

c) ನಾಗಾ ಬೆಟ್ಟ

d) ಮಿಜೊ ಬೆಟ್ಟ

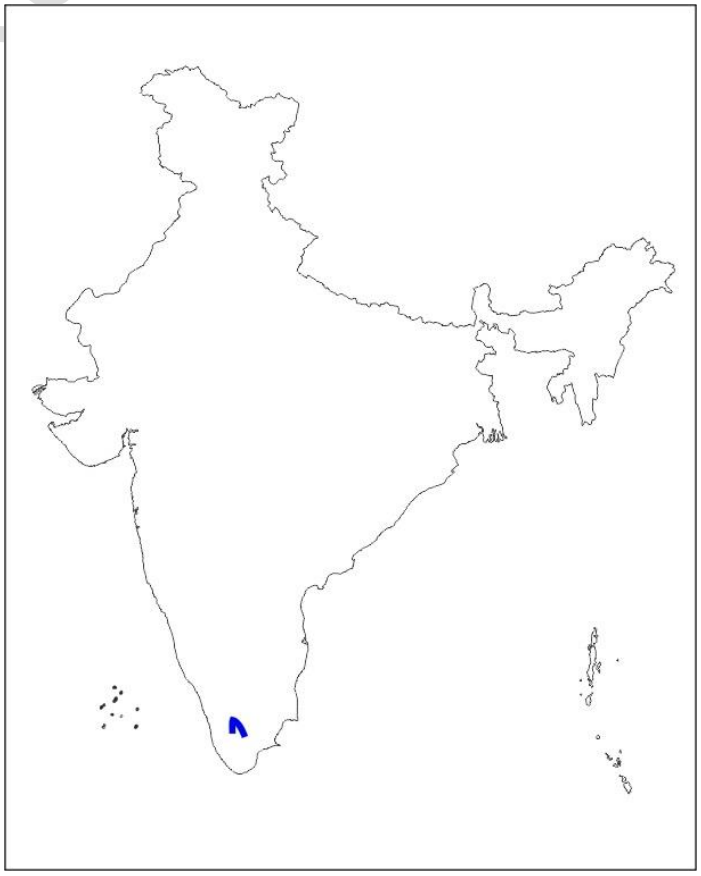

prasanth kumar

5. ಭಾರತದ ನಕಾಶೆಯಲ್ಲಿ ಗುರುತಿಸಿರುವ ಪ್ರಾಕೃತಿಕ ವಿಭಾಗವನ್ನು ಹೆಸರಿಸಿ.

a) ನಾಗಾ ಬೆಟ್ಟಗಳ ಸಾಲು

b) ಸಾತ್ಪುರ ಬೆಟ್ಟಗಳ ಸಾಲು

c) **ಅರಾವಳಿ ಬೆಟ್ಟಗಳ ಸಾಲು**

d) ಮೈಕೆಲಾ ಶ್ರೇಣಿ

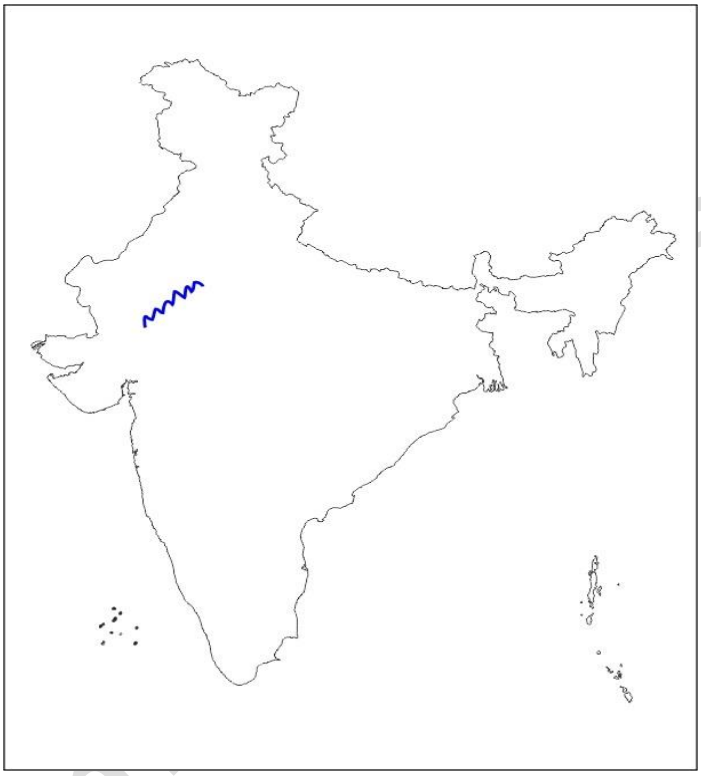

6. ಭಾರತದ ನಕಾಶೆಯಲ್ಲಿ ಗುರುತಿಸಿರುವ ಪ್ರಾಕೃತಿಕ ವಿಭಾಗವನ್ನು ಹೆಸರಿಸಿ.

a) ದಖನ್ ಪ್ರಸ್ಥಭೂಮಿ

b) ಮಾಳ್ವ ಪ್ರಸ್ಥಭೂಮಿ

c) **ಛೋಟನಾಗಪುರ ಪ್ರಸ್ಥಭೂಮಿ**

d) ಉತ್ಕಲ ತೀರ ಪ್ರದೇಶ

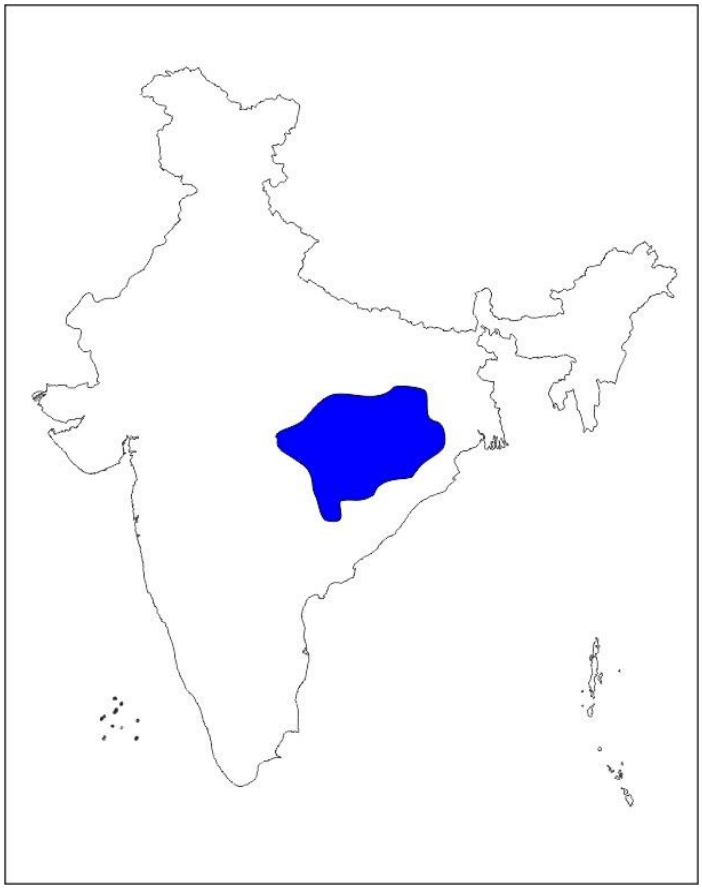

prasanth kumar

7. ಭಾರತದ ನಕಾಶೆಯಲ್ಲಿ ಗುರುತಿಸಿರುವ ಪ್ರಾಕೃತಿಕ ವಿಭಾಗವನ್ನು ಹೆಸರಿಸಿ.

a) ದಖನ್ ಪ್ರಸ್ಥಭೂಮಿ

b) ಮಾಳ್ವ ಪ್ರಸ್ಥಭೂಮಿ

c) ಛೋಟನಾಗಪುರ ಪ್ರಸ್ಥಭೂಮಿ

d) ಉತ್ಕಲ ತೀರ ಪ್ರದೇಶ

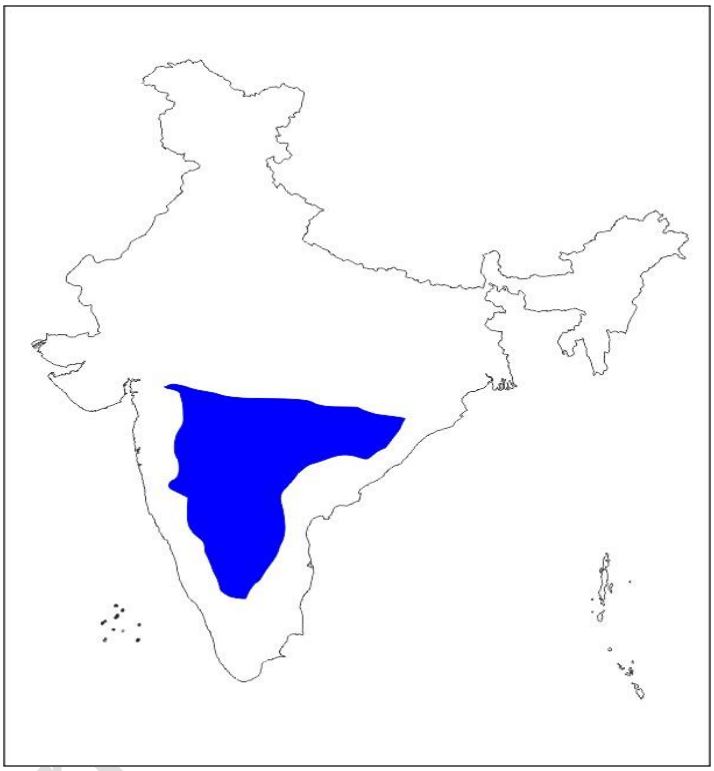

8. ಭಾರತದ ನಕಾಶೆಯಲ್ಲಿ ಗುರುತಿಸಿರುವ ಪ್ರಾಕೃತಿಕ ವಿಭಾಗವನ್ನು ಹೆಸರಿಸಿ.

a) ಪಶ್ಚಿಮ ಘಟ್ಟಗಳ ಸಾಲು

b) ಪೂರ್ವ ಘಟ್ಟಗಳ ಸಾಲು

c) ನಾಗಾ ಬೆಟ್ಟಗಳ ಸಾಲು

d) ಮೈಕೆಲಾ ಶ್ರೇಣಿ

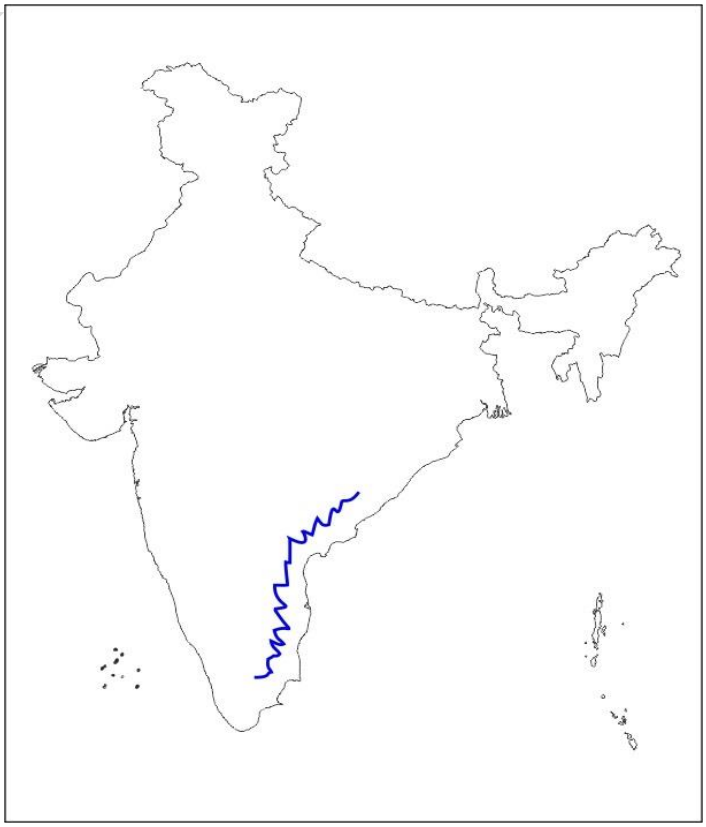

prasanth kum

9. ಭಾರತದ ನಕಾಶೆಯಲ್ಲಿ ಗುರುತಿಸಿರುವ ಪ್ರಾಕೃತಿಕ ವಿಭಾಗವನ್ನು ಹೆಸರಿಸಿ.

a) ಆನೈಮುಡಿ

b) ಪೀರ್ ಪಂಜಾಲ್

c) ಗುರುಶಿಖರ

d) ನೀಲಗಿರಿ ಬೆಟ್ಟ

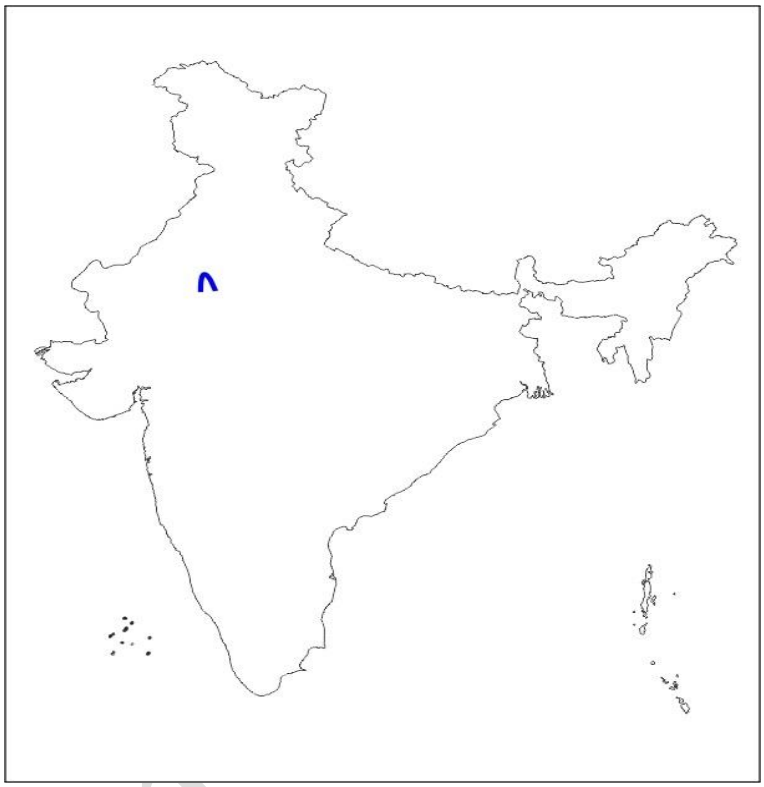

10. ಭಾರತದ ನಕಾಶೆಯಲ್ಲಿ ಗುರುತಿಸಿರುವ ಪ್ರಾಕೃತಿಕ ವಿಭಾಗವನ್ನು ಹೆಸರಿಸಿ.

a) ಗುರುಶಿಖರ

b) ಕೆ2

c) ಕಾಂಚನಗಂಗಾ

d) ಮೌಂಟ್ ಎವರೆಸ್ಟ್

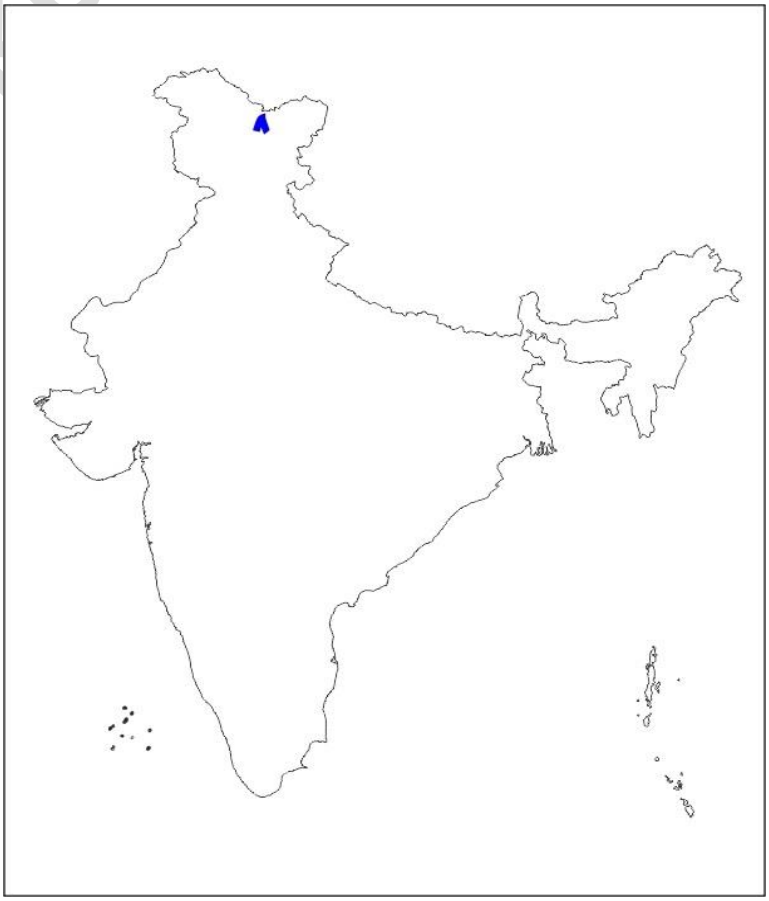

prasanth kum

11. ಭಾರತದ ನಕಾಶೆಯಲ್ಲಿ ಗುರುತಿಸಿರುವ ಪ್ರಾಕೃತಿಕ ವಿಭಾಗವನ್ನು ಹೆಸರಿಸಿ.

a) ಮನ್ನಾರ್ ಖಾರಿ

b) ಖಂಬತ ಖಾರಿ

c) ಕಛ್ ಖಾರಿ

d) ಪಾಕ್ ಜಲಸಂಧಿ

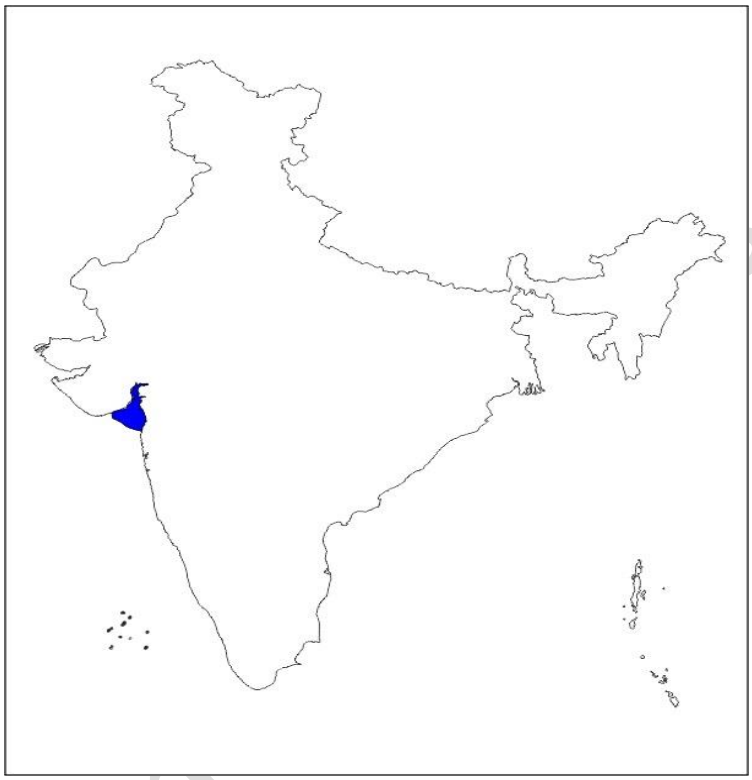

12. ಭಾರತದ ನಕಾಶೆಯಲ್ಲಿ ಗುರುತಿಸಿರುವ ಪ್ರಾಕೃತಿಕ ವಿಭಾಗವನ್ನು ಹೆಸರಿಸಿ.

a) ಕೊಂಕಣ ತೀರ

b) ಕೆನರಾ ತೀರ

c) ಮಲಬಾರ್ ತೀರ

d) ಸರ್ಕಾರ್ ತೀರ

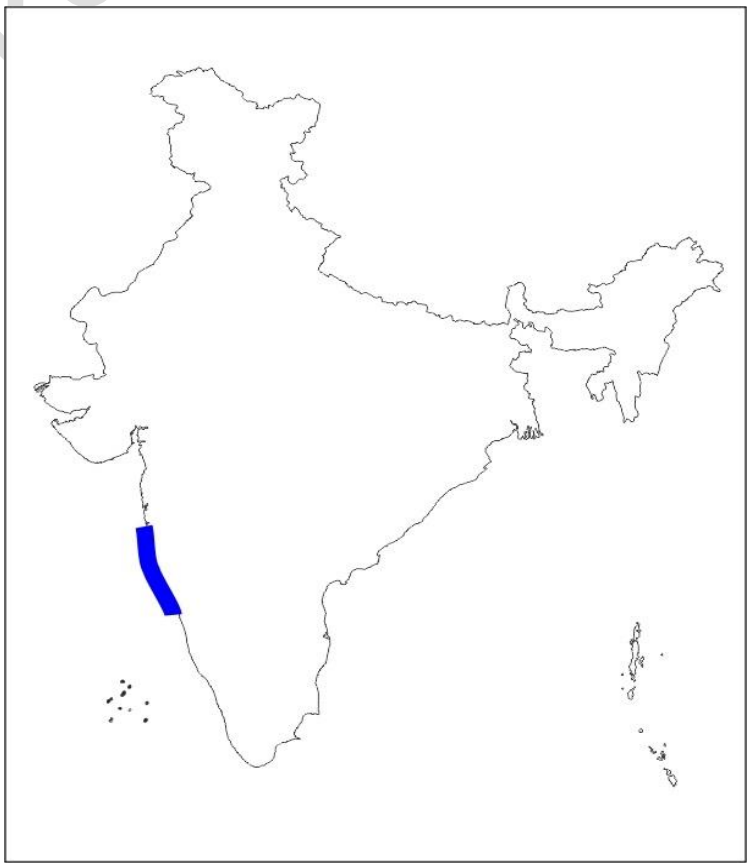

prasanth kum

13. ಭಾರತದ ನಕಾಶೆಯಲ್ಲಿ ಗುರುತಿಸಿರುವ ಪ್ರಾಕೃತಿಕ ವಿಭಾಗವನ್ನು ಹೆಸರಿಸಿ.

a) ಕೊಂಕಣ ತೀರ

b) ಕೆನರಾ ತೀರ

c) ಮಲಬಾರ್ ತೀರ

d) ಕೋರಮಂಡಲ ತೀರ

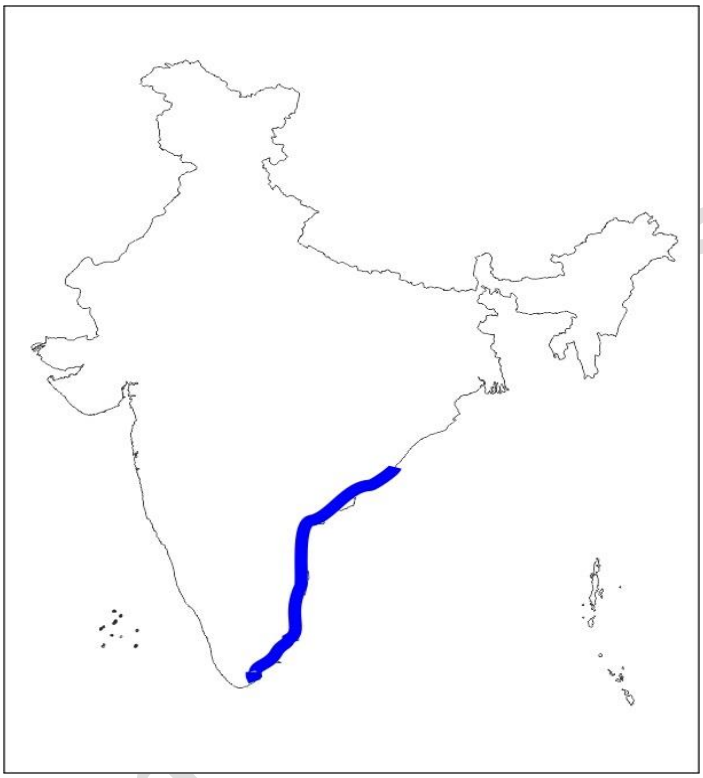

14. ಭಾರತದ ನಕಾಶೆಯಲ್ಲಿ ಗುರುತಿಸಿರುವ ಪ್ರಾಕೃತಿಕ ವಿಭಾಗವನ್ನು ಹೆಸರಿಸಿ.

a) ಕೊಂಕಣ ತೀರ

b) ಕೆನರಾ ತೀರ

c) ಮಲಬಾರ್ ತೀರ

d) ಸರ್ಕಾರ್ ತೀರ

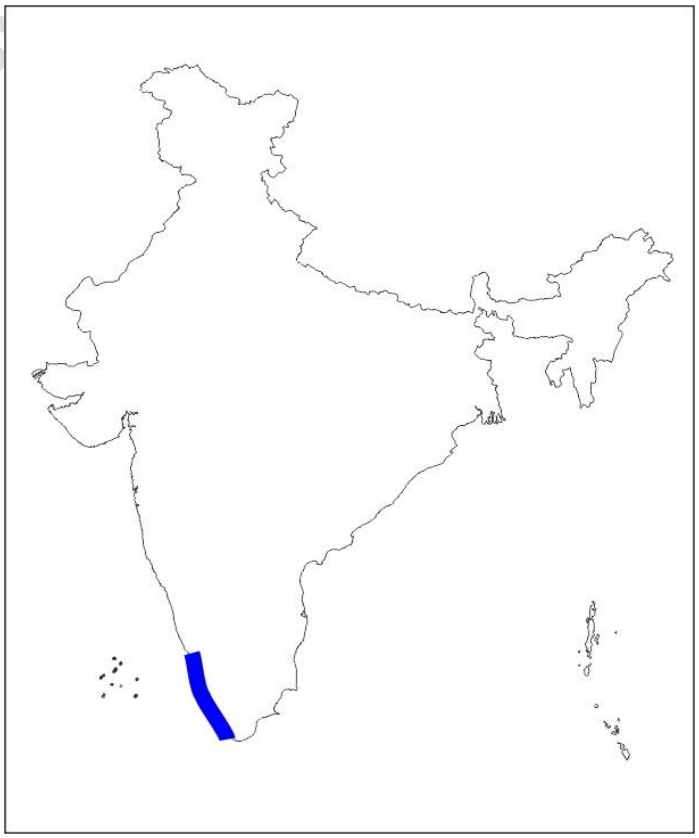

prasanth kumar

15. ಭಾರತದ ನಕಾಶೆಯಲ್ಲಿ ಗುರುತಿಸಿರುವ ಪ್ರಾಕೃತಿಕ ವಿಭಾಗವನ್ನು ಹೆಸರಿಸಿ.

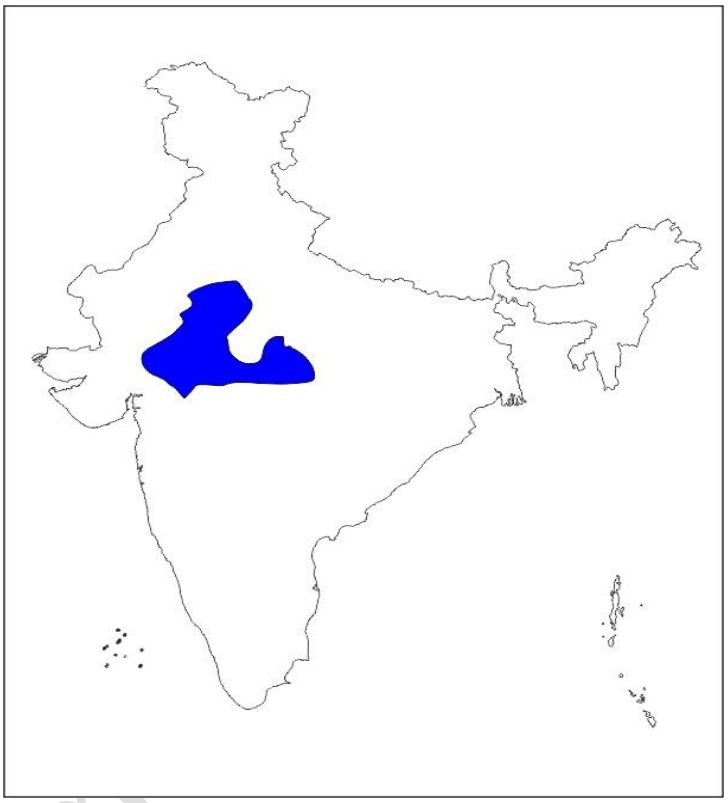

a) ದಖನ್ ಪ್ರಸ್ಥಭೂಮಿ

b) ಮಾಳ್ವ ಪ್ರಸ್ಥಭೂಮಿ

c) ಛೋಟನಾಗಪುರ ಪ್ರಸ್ಥಭೂಮಿ

d) ಥಾರ್ ಮರುಭೂಮಿ

16. ಭಾರತದ ನಕಾಶೆಯಲ್ಲಿ ಗುರುತಿಸಿರುವ ಪ್ರಾಕೃತಿಕ ವಿಭಾಗವನ್ನು ಹೆಸರಿಸಿ.

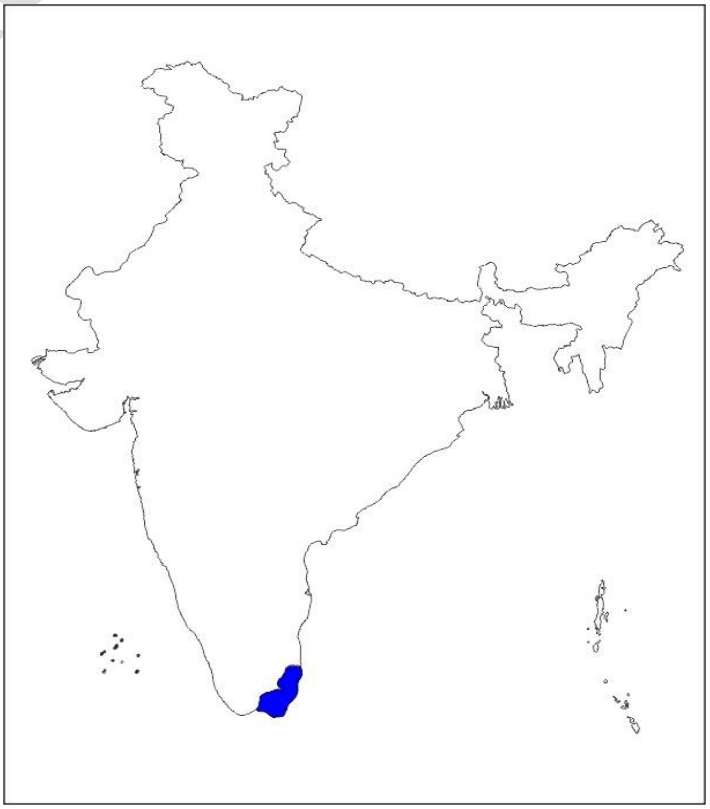

a) ಕಛ್ ಖಾರಿ

b) ಪಾಕ್ ಜಲಸಂಧಿ

c) ಮನ್ನಾರ್ ಖಾರಿ

d) ಕೊಚ್ಚಿ

prasanth kum

17. ಭಾರತದ ನಕಾಶೆಯಲ್ಲಿ ಗುರುತಿಸಿರುವ ಪ್ರಾಕೃತಿಕ ವಿಭಾಗವನ್ನು ಹೆಸರಿಸಿ.

a) ಗುರುಶೀಖರ

b) ಮುಳ್ಳಯ್ಯನ ಗಿರಿ ಬೆಟ್ಟ

c) ಆನೈಮುಡಿ

d) ನಾಗಾ ಬೆಟ್ಟ

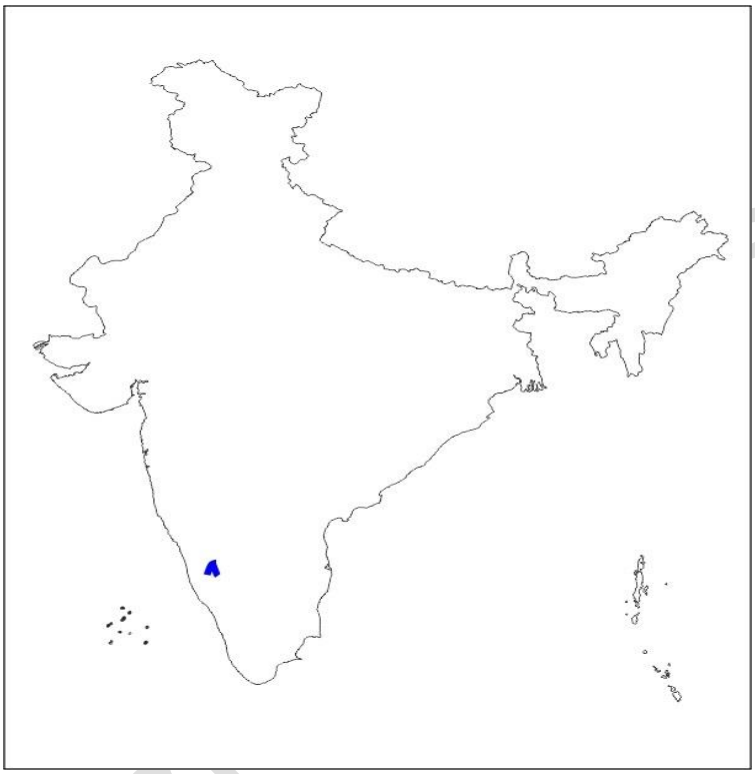

18. ಭಾರತದ ನಕಾಶೆಯಲ್ಲಿ ಗುರುತಿಸಿರುವ ಪ್ರಾಕೃತಿಕ ವಿಭಾಗವನ್ನು ಹೆಸರಿಸಿ.

a) ಗುರುಶೀಖರ

b) ಮುಳ್ಳಯ್ಯನ ಗಿರಿ ಬೆಟ್ಟ

c) ನೀಲಗಿರಿ

d) ನಾಗಾ ಬೆಟ್ಟ

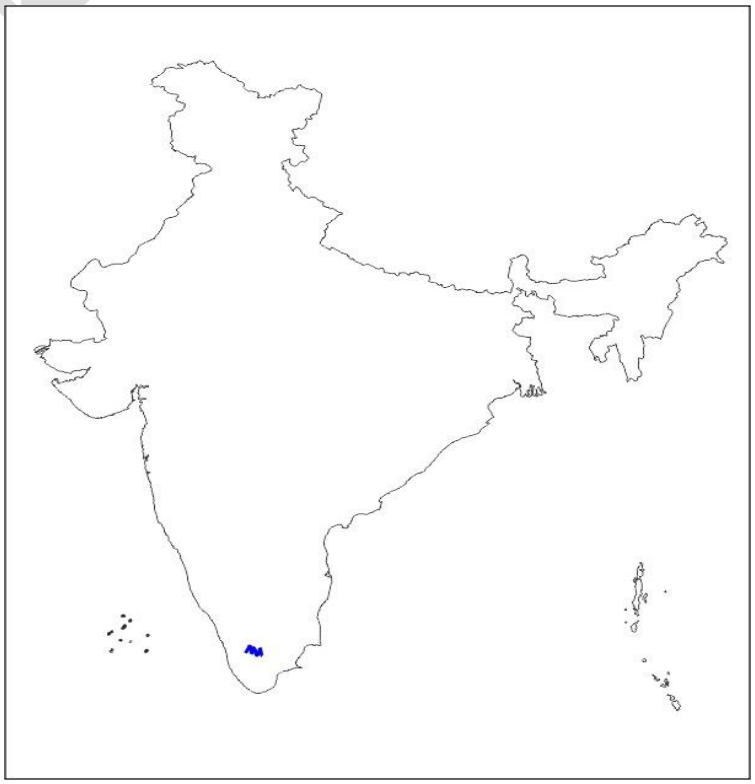

prasanth kum

19. ಭಾರತದ ನಕಾಶೆಯಲ್ಲಿ ಗುರುತಿಸಿರುವ ಪ್ರಾಕೃತಿಕ ವಿಭಾಗವನ್ನು ಹೆಸರಿಸಿ.

a) ಕಛ್ ಖಾರಿ

b) ಪಾಕ್ ಜಲಸಂಧಿ

c) ಮನ್ನಾರ್ ಖಾರಿ

d) ಕನ್ಯಾಕುಮಾರಿ

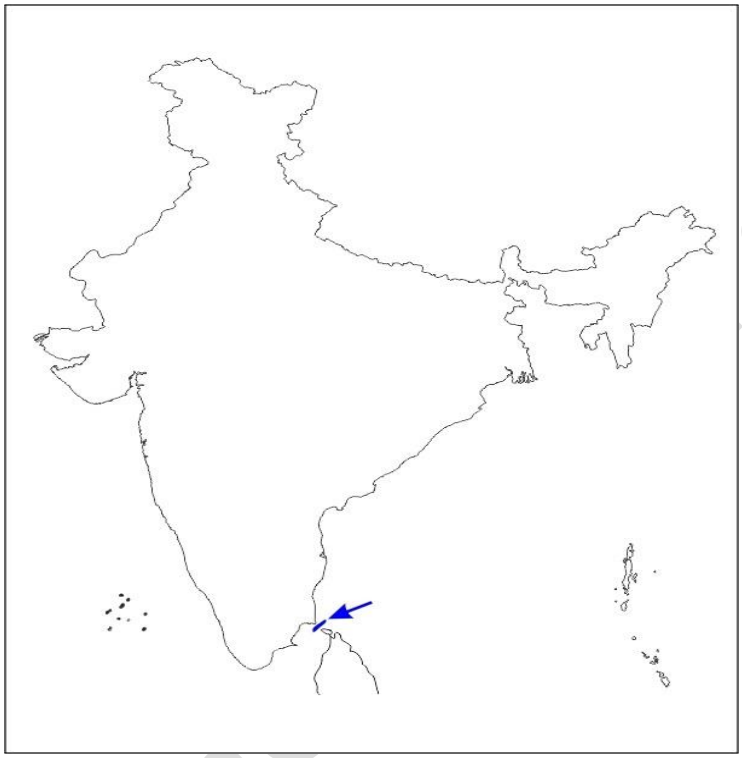

20. ಭಾರತದ ನಕಾಶೆಯಲ್ಲಿ ಗುರುತಿಸಿರುವ ಪ್ರಾಕೃತಿಕ ವಿಭಾಗವನ್ನು ಹೆಸರಿಸಿ.

a) ಕೊಂಕಣ ತೀರ

b) ಉತ್ತರ ಸರ್ಕಾರ್ ತೀರ.

c) ಮಲಬಾರ್ ತೀರ

d) ಕೋರಮಂಡಲ ತೀರ

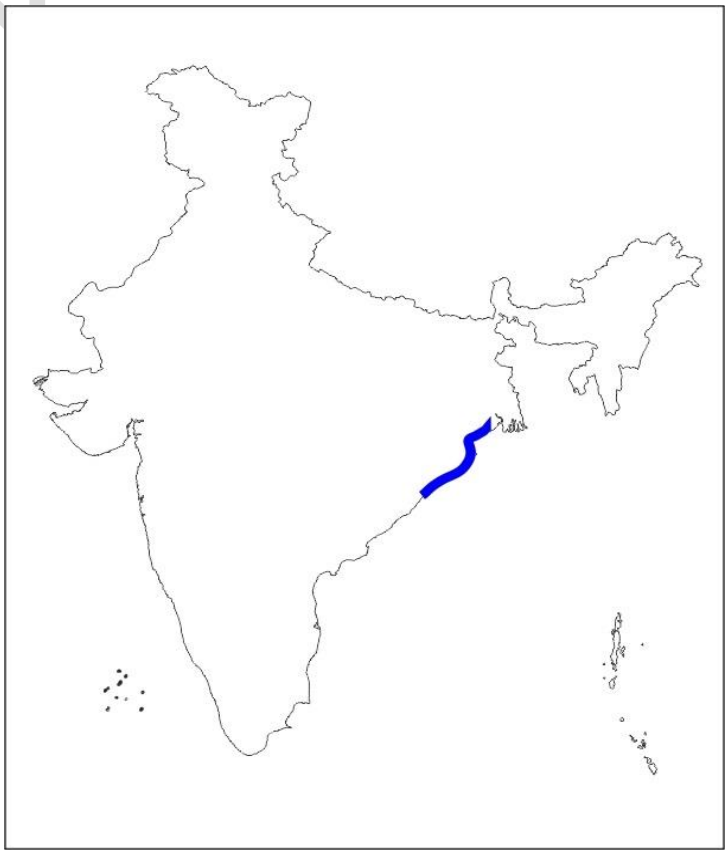

prasanth kumar

21. ಭಾರತದ ನಕಾಶೆಯಲ್ಲಿ ಈ ನದಿ ಕಣಿವೆ ಯೋಜನೆಯನ್ನು ಹೆಸರಿಸಿ.

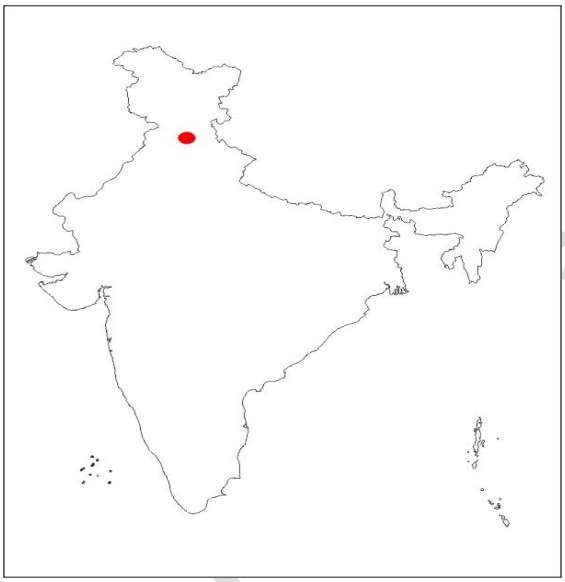

a) ಗಂಡಕಿ ಯೋಜನೆ

b) ಕೋಸಿ ಯೋಜನೆ

c) ರಿಹಾಂಡ್ ಯೋಜನೆ

d) ಭಾಕ್ರ ನಂಗಲ್ ಯೋಜನೆ

22. ಭಾರತದ ನಕಾಶೆಯಲ್ಲಿ ಈ ನದಿ ಕಣಿವೆ ಯೋಜನೆಯನ್ನು ಹೆಸರಿಸಿ.

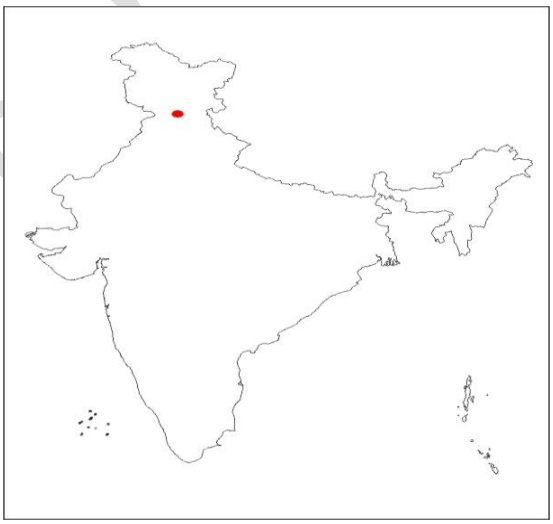

a) ನರ್ಮದಾ ಯೋಜನೆ

b) ಗಂಡಕಿ ಯೊಜನೆ

c) ಬಿಯಾಸ್ ಯೋಜನೆ

d) ಚಂಬಲ್ ಯೋಜನೆ

23. ಭಾರತದ ನಕಾಶೆಯಲ್ಲಿ ಈ ನದಿ ಕಣಿವೆ ಯೋಜನೆಯನ್ನು ಹೆಸರಿಸಿ.

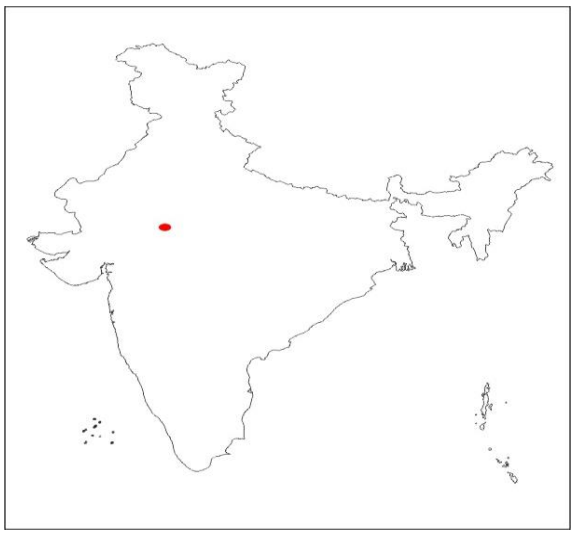

a) ನರ್ಮದಾ ಯೋಜನೆ

b) ನಾಗಾರ್ಜುನಾ ಸಾಗರ

c) ಬಿಯಾಸ್ ಯೋಜನೆ

d) ಚಂಬಲ್ ಯೋಜನೆ

prasanth kum

24. ಭಾರತದ ನಕಾಶೆಯಲ್ಲಿ ಈ ನದಿ ಕಣಿವೆ ಯೋಜನೆಯನ್ನು ಹೆಸರಿಸಿ

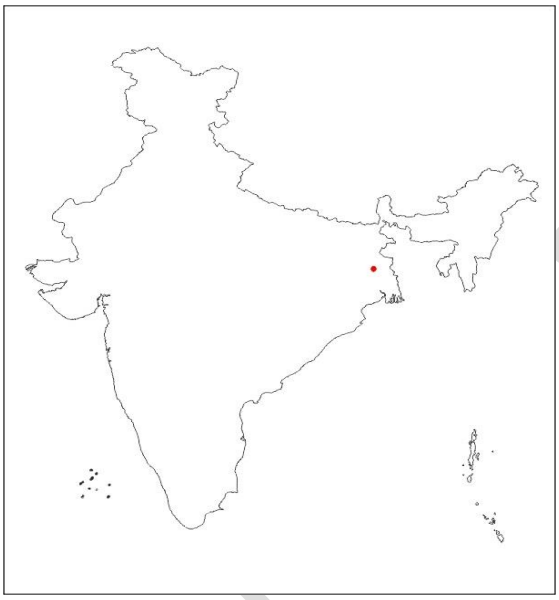

a) ದಾಮೋದರ್ ಯೋಜನೆ

b) ನಾಗಾರ್ಜುನಾ ಸಾಗರ

c) ಕೋಸಿ ಯೋಜನೆ

d) ಗಂಡಕಿ ಯೋಜನೆ

25. ಭಾರತದ ನಕಾಶೆಯಲ್ಲಿ ಈ ನದಿ ಕಣಿವೆ ಯೋಜನೆಯನ್ನು ಹೆಸರಿಸಿ.

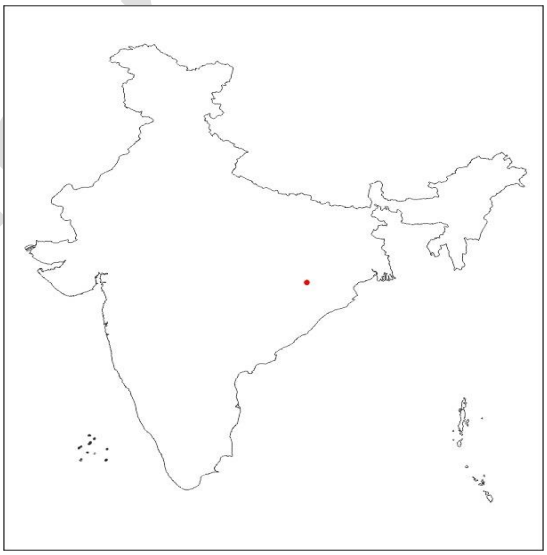

a) ರಿಹಾಂಡ್ ಯೋಜನೆ

b) ನಾಗಾರ್ಜುನಾ ಸಾಗರ

c) ಹಿರಾಕುಡ್ ಯೋಜನೆ

d) ಗಂಡಕಿ ಯೋಜನೆ

26. ಭಾರತದ ನಕಾಶೆಯಲ್ಲಿ ಈ ನದಿ ಕಣಿವೆ ಯೋಜನೆಯನ್ನು ಹೆಸರಿಸಿ.

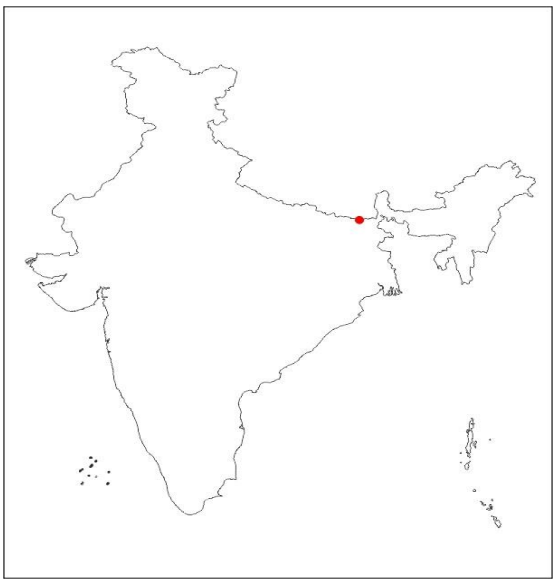

a) ದಾಮೋದರ ಯೋಜನೆ

b) ಕೋಸಿ ಯೋಜನೆ

c) ಹಿರಾಕುಡ್ ಯೋಜನೆ

d) ಗಂಡಕಿ ಯೋಜನೆ

prasanth kumar

27. ಭಾರತದ ನಕಾಶೆಯಲ್ಲಿ ಈ ನದಿ ಕಣಿವೆ ಯೋಜನೆಯನ್ನು ಹೆಸರಿಸಿ.

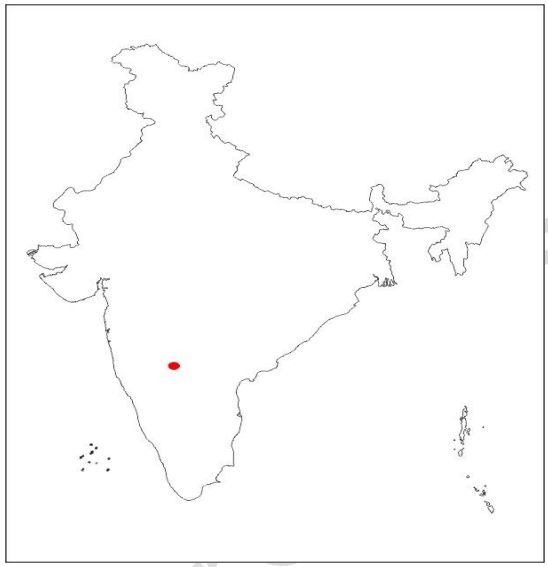

a) ಕೃಷ್ಣ ಮೇಲ್ದಡೆ ಯೋಜನೆ

b) ನಾಗಾರ್ಜುನ ಸಾಗರ

c) ಪಂಪಸಾಗರ

d) ಕೃಷ್ಣರಾಜ ಸಾಗರ

28. ಭಾರತದ ನಕಾಶೆಯಲ್ಲಿ ಈ ನದಿ ಕಣಿವೆ ಯೋಜನೆಯನ್ನು ಹೆಸರಿಸಿ.

a) ಕೃಷ್ಣ ಮೇಲ್ದಡೆ ಯೋಜನೆ

b) ನಾಗಾರ್ಜುನ ಸಾಗರ

c) ಪಂಪಸಾಗರ

d) ಕೃಷ್ಣರಾಜ ಸಾಗರ

29. ಭಾರತದ ನಕಾಶೆಯಲ್ಲಿ ಈ ನದಿ ಕಣಿವೆ ಯೋಜನೆಯನ್ನು ಹೆಸರಿಸಿ.

a) ನರ್ಮದಾ ಯೋಜನೆ

b) ರಿಹಾಂಡ್ ಯೋಜನೆ

c) ಚಂಬಲ್ ಯೋಜನೆ

d) ಕೃಷ್ಣ ಮೇಲ್ದಡೆ ಯೋಜನೆ

prasanth kumar

30. ಭಾರತದ ನಕಾಶೆಯಲ್ಲಿ ಈ ನದಿ ಕಣಿವೆ ಯೋಜನೆಯನ್ನು ಹೆಸರಿಸಿ.

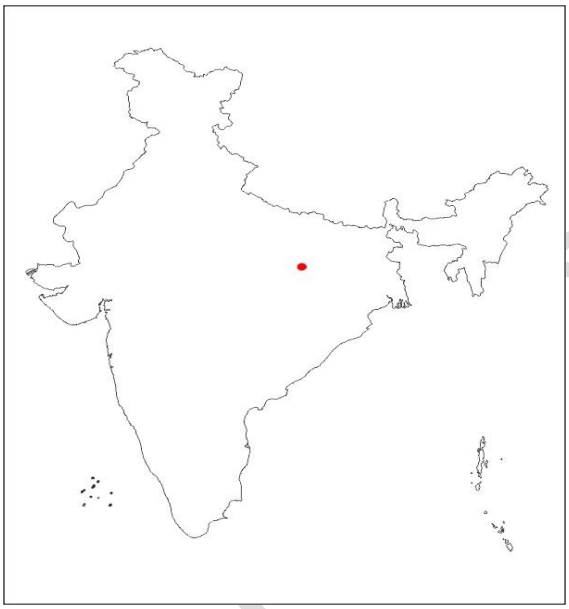

a) ದಾಮೋದರ್ ಯೋಜನೆ

b) ರಿಹಾಂಡ್ ಯೋಜನೆ

c) ಚಂಬಲ್ ಯೋಜನೆ

d) ಹಿರಾಕುಡ್ ಯೋಜನೆ

31. ಭಾರತದ ನಕಾಶೆಯಲ್ಲಿ ಈ ನದಿ ಕಣಿವೆ ಯೋಜನೆಯನ್ನು ಹೆಸರಿಸಿ.

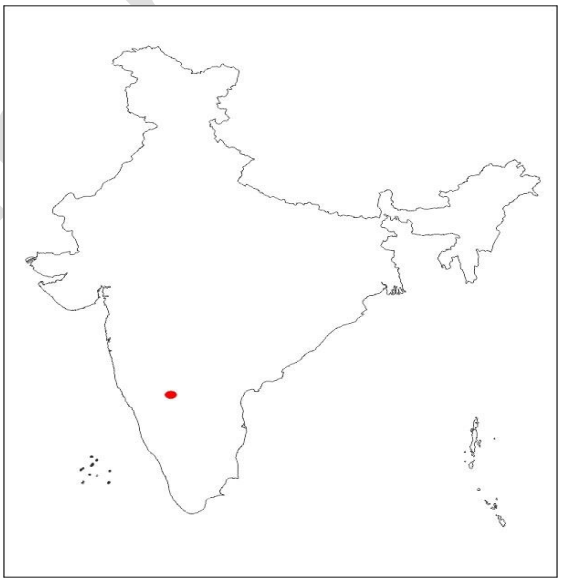

a) ತುಂಗಭದ್ರ ಯೋಜನೆ

b) ನಾಗಾರ್ಜುನ ಸಾಗರ

c) ನರ್ಮದಾ ಯೋಜನೆ

d) ಕೃಷ್ಣರಾಜ ಸಾಗರ

32. ಭಾರತದ ನಕಾಶೆಯಲ್ಲಿ ಈ ನದಿ ಕಣಿವೆ ಯೋಜನೆಯನ್ನು ಹೆಸರಿಸಿ.

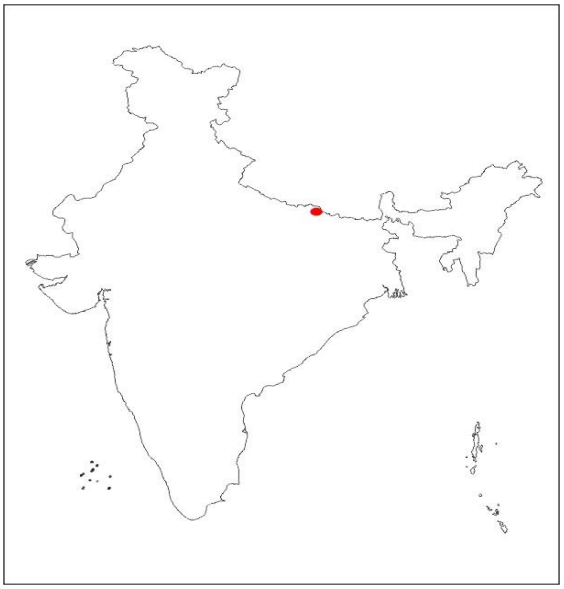

a) ಗಂಡಕಿ ಯೋಜನೆ

b) ಕೋಸಿ ಯೋಜನೆ

c) ರಿಹಾಂಡ್ ಯೋಜನೆ

d) ಬಿಯಾಸ್ ಯೋಜನೆ

prasanth kumar

33. ನಕಾಶೆಯಲ್ಲಿ ಗುರುತಿಸಿರುವ ನದಿ ಹೆಸರಿಸಿ

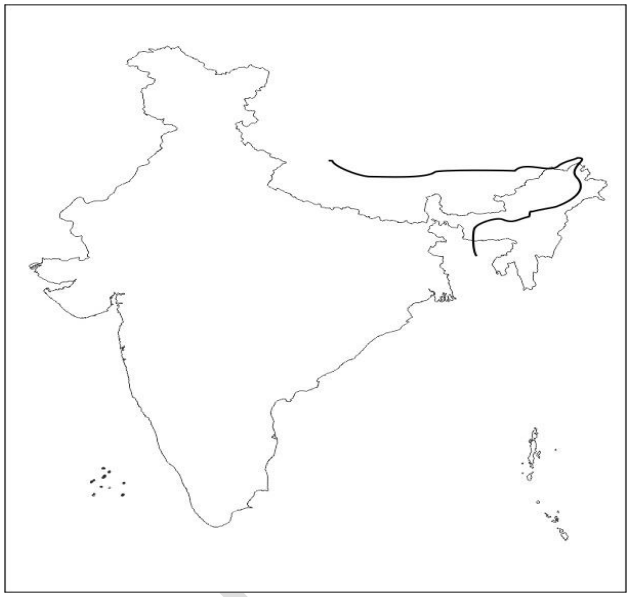

a) ಗಂಗಾ

b) ಬ್ರಹ್ಮಪುತ್ರ

c) ಸಿಂಧೂ

d) ಯಮುನ

34. ನಕಾಶೆಯಲ್ಲಿ ಗುರುತಿಸಿರುವ ನದಿ ಹೆಸರಿಸಿ.

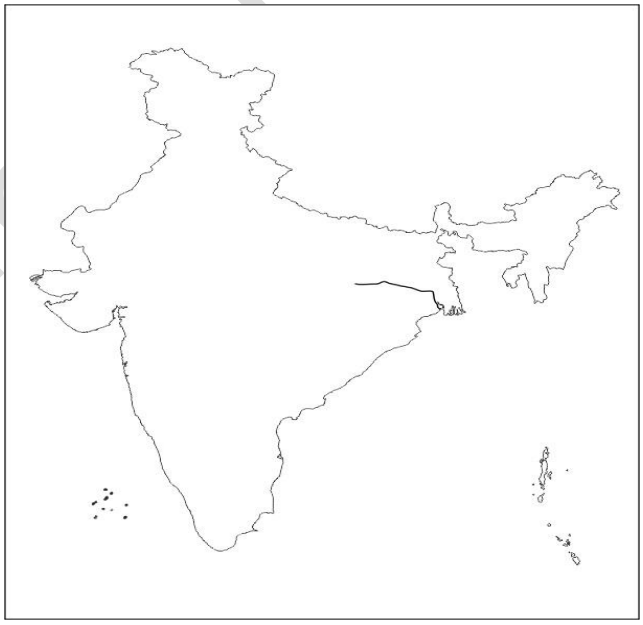

a) ಗಂಗಾ ನದಿ

b) ದಾಮೋದರ ನದಿ

c) ಗೋದಾವರಿ ನದಿ

d) ಕೃಷ್ಣಾ ನದಿ

35. ನಕಾಶೆಯಲ್ಲಿ ಗುರುತಿಸಿರುವ ನದಿ ಹೆಸರಿಸಿ.

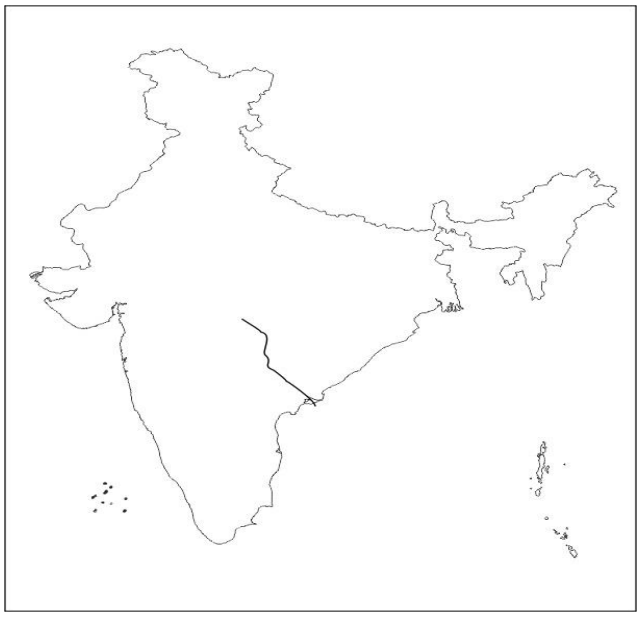

a) ಗೋದಾವರಿ ನದಿ

b) ತುಂಗಭದ್ರ

c) ದಾಮೋದರ ನದಿ

d) ಕೃಷ್ಣಾ ನದಿ

prasanth kum

36. ನಕಾಶೆಯಲ್ಲಿ ಗುರುತಿಸಿರುವ ನದಿ ಹೆಸರಿಸಿ

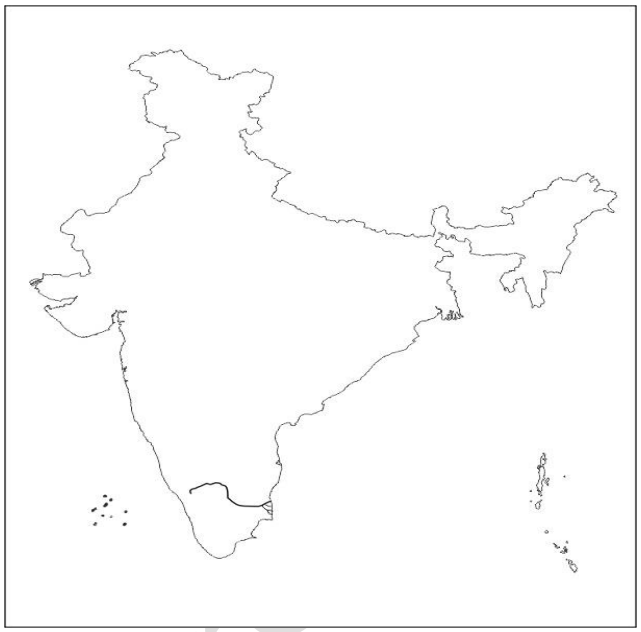

a) ಪಾಲಾರ್ ನದಿ

b) ಕಾವೇರಿ ನದಿ

c) ಭದ್ರ ನದಿ

d) ಶರಾವತಿ ನದಿ

37. ನಕಾಶೆಯಲ್ಲಿ ಗುರುತಿಸಿರುವ ನದಿ ಹೆಸರಿಸಿ.

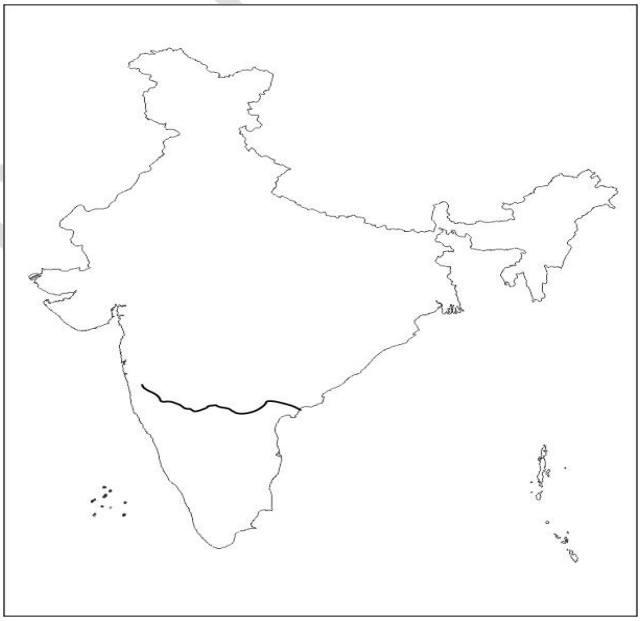

a) ತುಂಗಭದ್ರ ನದಿ

b) ಕಾವೇರಿ ನದಿ

c) ಕೃಷ್ಣನದಿ

d) ಶರಾವತಿ ನದಿ

38. ನಕಾಶೆಯಲ್ಲಿ ಗುರುತಿಸಿರುವ ನದಿ ಹೆಸರಿಸಿ.

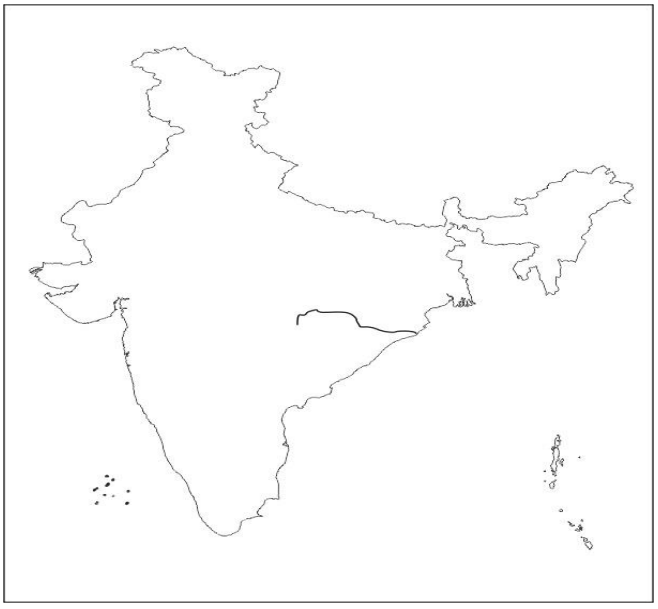

a) ದಾಮೋದರ ನದಿ

b) ಮಹಾನದಿ

c) ಗೋದಾವರಿ ನದಿ

d) ಕೃಷ್ಣ ನದಿ

prasanth kum

39. ನಕಾಶೆಯಲ್ಲಿ ಗುರುತಿಸಿರುವ ನದಿ ಹೆಸರಿಸಿ

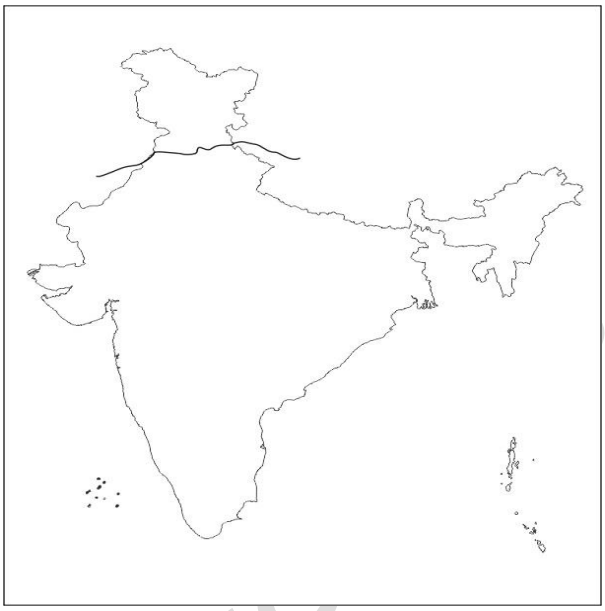

a) ಸಿಂಧೂ ನದಿ

b) ಯಮುನಾ ನದಿ

c) ಚಂಬಲ್ ನದಿ

d) ಸಟ್ಲೇಜ್ ನದಿ

40. ನಕಾಶೆಯಲ್ಲಿ ಗುರುತಿಸಿರುವ ನದಿ ಹೆಸರಿಸಿ

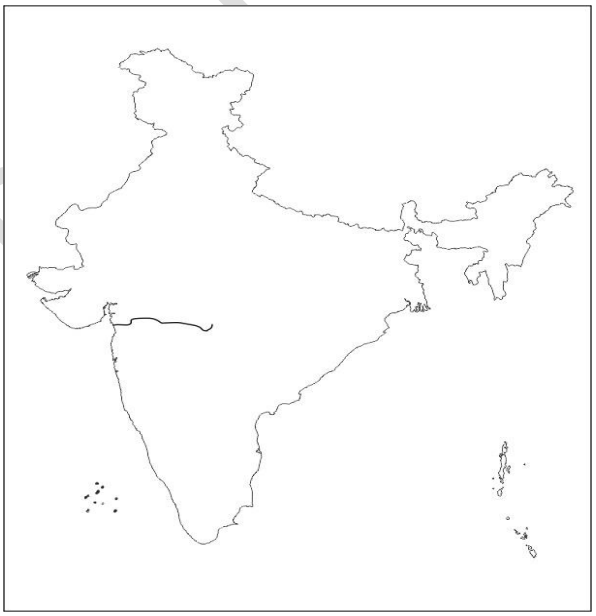

a) ಯಮುನಾ ನದಿ

b) ತಪತಿ ನದಿ

c) ಚಂಬಲ್ ನದಿ

d) ಕಾಳಿ ನದಿ

41. ನಕಾಶೆಯಲ್ಲಿ ಗುರುತಿಸಿರುವ ನದಿ ಹೆಸರಿಸಿ.

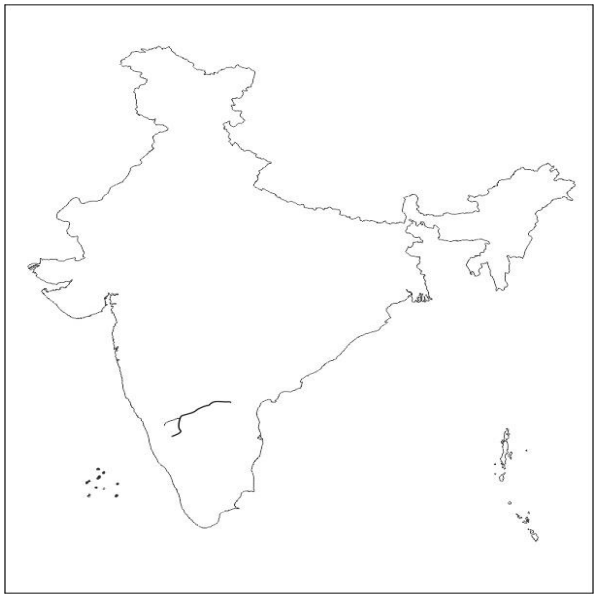

a) ಶರಾವತಿ ನದಿ

b) ಕಾಳಿ ನದಿ

c) ತುಂಗಭದ್ರ ನದಿ

d) ಕಾವೇರಿ ನದಿ

prasanth kum

42. ನಕಾಶೆಯಲ್ಲಿ ಗುರುತಿಸಿರುವ ನದಿ ಹೆಸರಿಸಿ

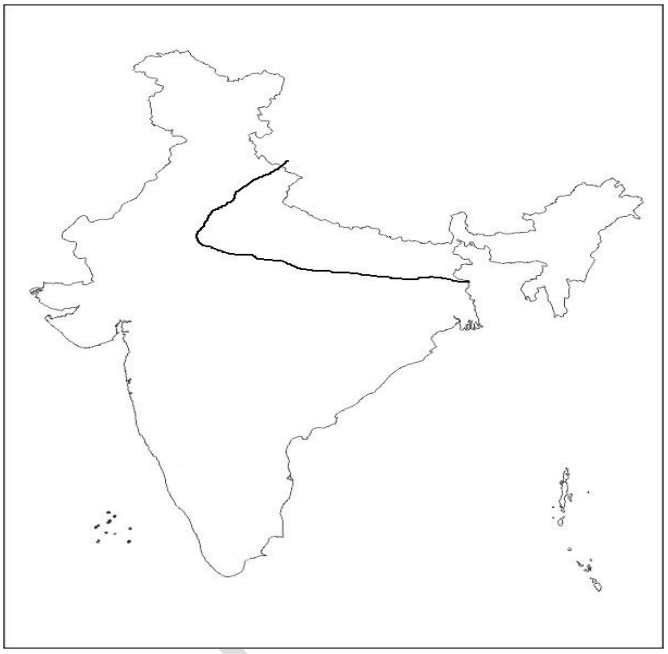

a) ಗಂಗಾ

b) ಬ್ರಹ್ಮಪುತ್ರ

c) ಸಿಂಧೂ

d) ಯಮುನ

43. ನಕಾಶೆಯಲ್ಲಿ ಗುರುತಿಸಿರುವ ನದಿ ಹೆಸರಿಸಿ

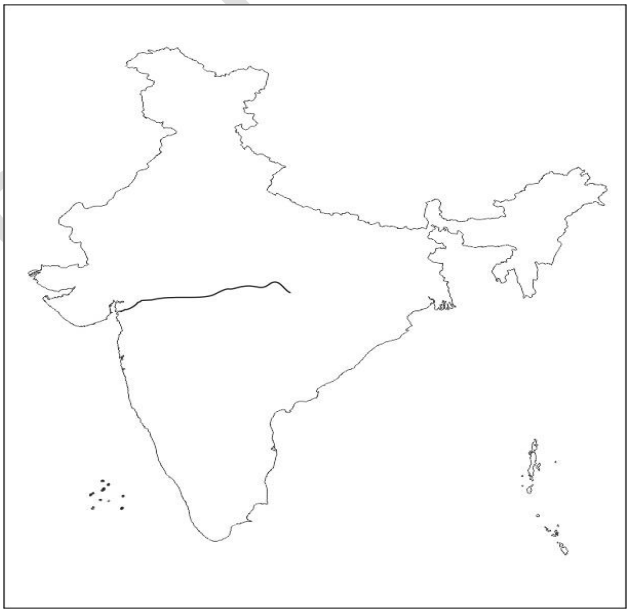

a) ನರ್ಮದಾ ನದಿ

b) ಯಮುನಾ ನದಿ

c) ಕಾಳಿ ನದಿ

d) ಸಟ್ಲೇಜ್ ನದಿ

44. ಭಾರತದ ನಕಾಶೆಯಲ್ಲಿ ಈ ನದಿ ಕಣಿವೆ ಯೋಜನೆಯನ್ನು ಹೆಸರಿಸಿ

a) ನಾಗಾರ್ಜುನ ಸಾಗರ

b) ಪಂಪಸಾಗರ

c) ನರ್ಮದಾ ಯೋಜನೆ

d) ಕೃಷ್ಣ ಸಾಗರ ಯೋಜನೆ

prasanth kum

45. ಭಾರತದ ನಕಾಶೆಯಲ್ಲಿ ಈ ನದಿ ಕಣಿವೆ ಯೋಜನೆಯನ್ನು ಹೆಸರಿಸಿ

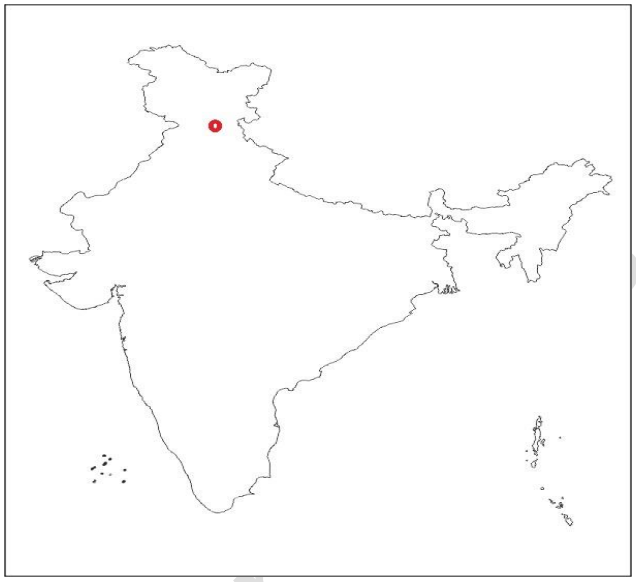

a) ನಾಗಾರ್ಜುನ ಸಾಗರ

b) ಪಂಪಸಾಗರ

c) ಗೋವಿಂದ ಸಾಗರ

d) ಕೃಷ್ಣ ಸಾಗರ ಯೋಜನೆ

46. ಭಾರತದ ನಕಾಶೆಯಲ್ಲಿ ಗುರುತಿಸಿರುವ ಬಂದರುಗಳನ್ನು ಹೆಸರಿಸಿ.

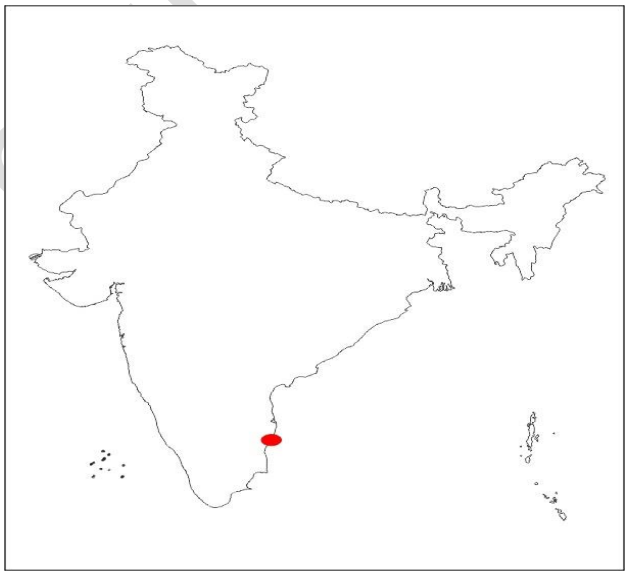

a) ಚೆನ್ನೈ

b) ತುತಕುಡಿ

c) ವಿಶಾಖಪಟ್ಟಣ

d) ಪರಾದೀಪ್

47. ಭಾರತದ ನಕಾಶೆಯಲ್ಲಿ ಗುರುತಿಸಿರುವ ಬಂದರುಗಳನ್ನು ಹೆಸರಿಸಿ.

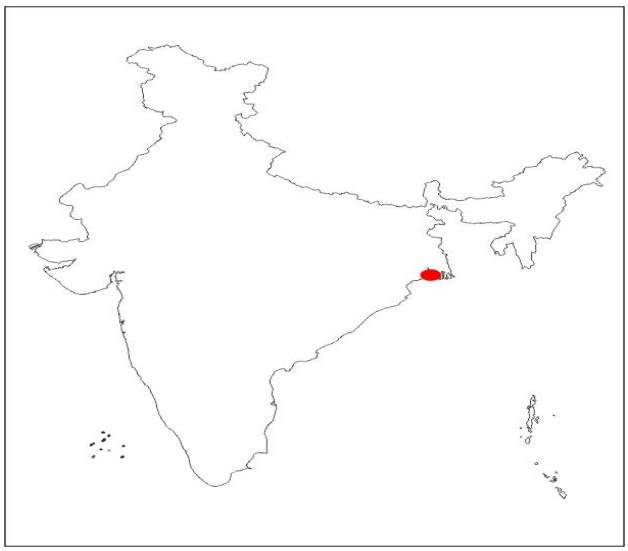

a) ವಿಶಾಖಪಟ್ಟಣ

b) ಪರಾದೀಪ್

c) ಎನ್ನೋರ್

d) ಹಾಲ್ದಿಯ

prasanth kumar

48. ಭಾರತದ ನಕಾಶೆಯಲ್ಲಿ ಗುರುತಿಸಿರುವ ಬಂದರುಗಳನ್ನು ಹೆಸರಿಸಿ.

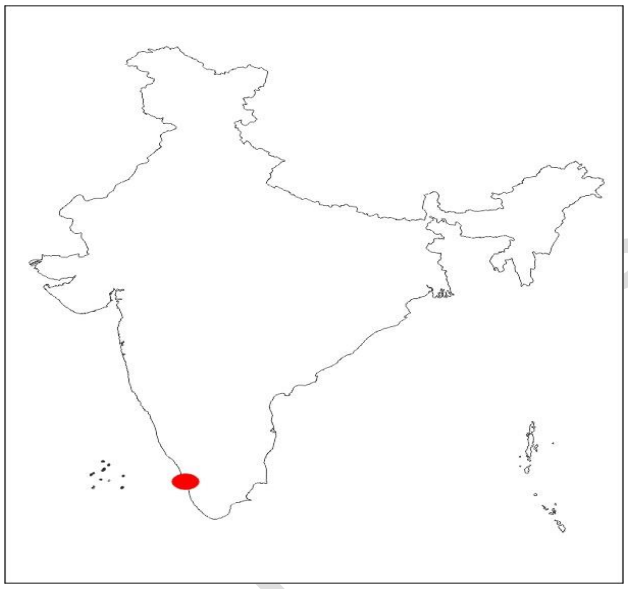

a) ಮಂಗಳೂರು

b) ತುತಕುಡಿ

c) ಎನ್ನೋರ್

d) ಕೊಚ್ಚಿ

49. ಭಾರತದ ನಕಾಶೆಯಲ್ಲಿ ಗುರುತಿಸಿರುವ ಬಂದರುಗಳನ್ನು ಹೆಸರಿಸಿ.

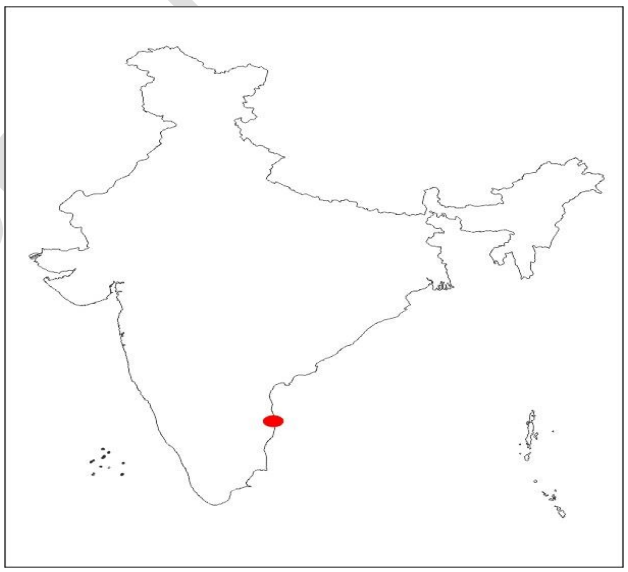

a) ಮಂಗಳೂರು

b) ತುತಕುಡಿ

c) ಎನ್ನೋರ್

d) ಕೊಚ್ಚಿ

50. ಭಾರತದ ನಕಾಶೆಯಲ್ಲಿ ಗುರುತಿಸಿರುವ ಬಂದರುಗಳನ್ನು ಹೆಸರಿಸಿ.

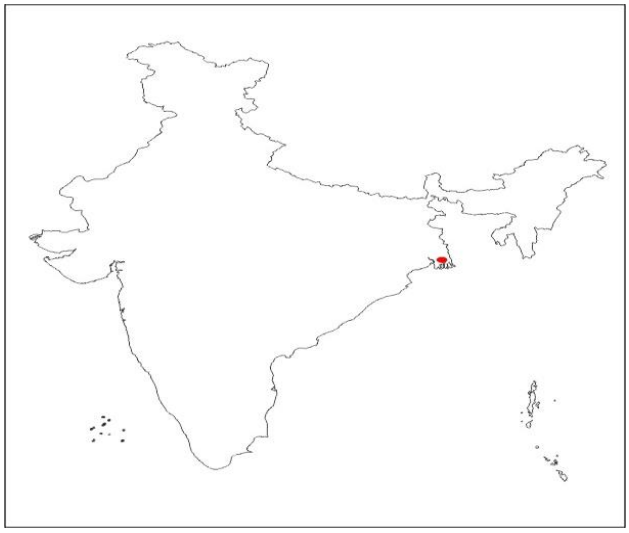

a) ವಿಶಾಖಪಟ್ಟಣ

b) ಪರಾದೀಪ್

c) ಕೊಲ್ಕತ್ತ

d) ಹಾಲ್ದಿಯ

prasanth kumar

51. ಭಾರತದ ನಕಾಶೆಯಲ್ಲಿ ಗುರುತಿಸಿರುವ ಬಂದರುಗಳನ್ನು ಹೆಸರಿಸಿ.

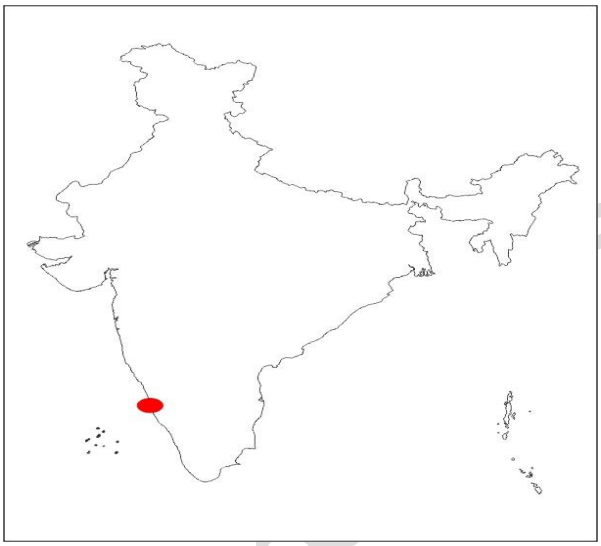

a) ಮಂಗಳೂರು

b) ಮುಂಬೈ

c) ಮರ್ಮಗೋವ

d) ಕೊಚ್ಚಿ

52. ಭಾರತದ ನಕಾಶೆಯಲ್ಲಿ ಗುರುತಿಸಿರುವ ಬಂದರುಗಳನ್ನು ಹೆಸರಿಸಿ.

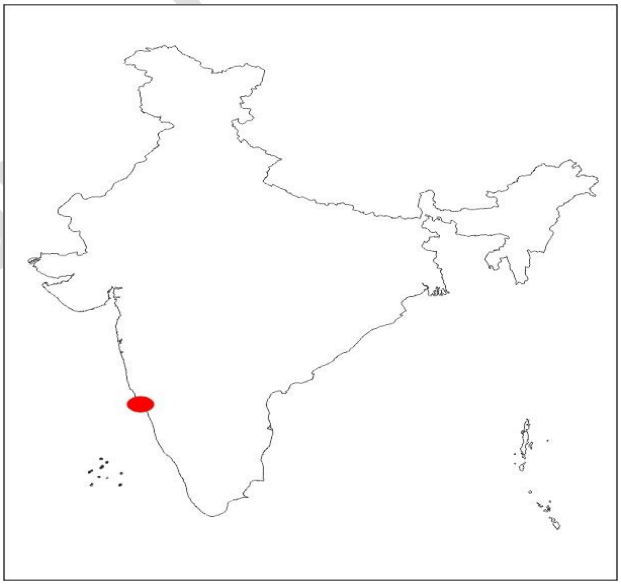

a) ಮಂಗಳೂರು

b) ಮುಂಬೈ

c) ಮರ್ಮಗೋವ

d) ಕೊಚ್ಚಿ

53. ಭಾರತದ ನಕಾಶೆಯಲ್ಲಿ ಗುರುತಿಸಿರುವ ಬಂದರುಗಳನ್ನು ಹೆಸರಿಸಿ.

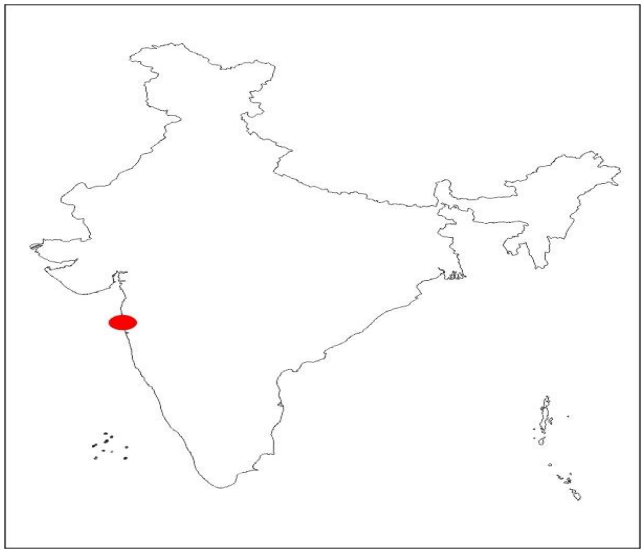

a) ಮಂಗಳೂರು

b) ಮುಂಬೈ

c) ಮರ್ಮಗೋವ

d) ಕೊಚ್ಚಿ

prasanth kumar royal's

54. ಭಾರತದ ನಕಾಶೆಯಲ್ಲಿ ಗುರುತಿಸಿರುವ ಬಂದರುಗಳನ್ನು ಹೆಸರಿಸಿ.

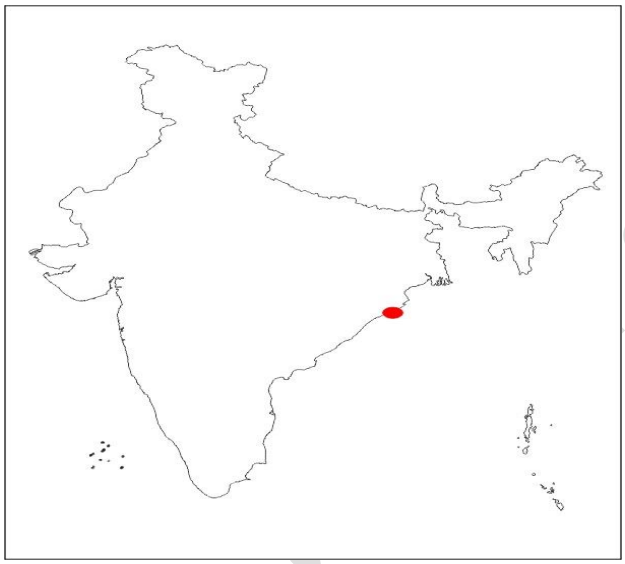

a) ವಿಶಾಖಪಟ್ಟಣ

b) ಪರಾದೀಪ್

c) ಕೊಲ್ಕತ್ತ

d) ಹಾಲ್ದಿಯ

55. ಭಾರತದ ನಕಾಶೆಯಲ್ಲಿ ಗುರುತಿಸಿರುವ ಬಂದರುಗಳನ್ನು ಹೆಸರಿಸಿ.

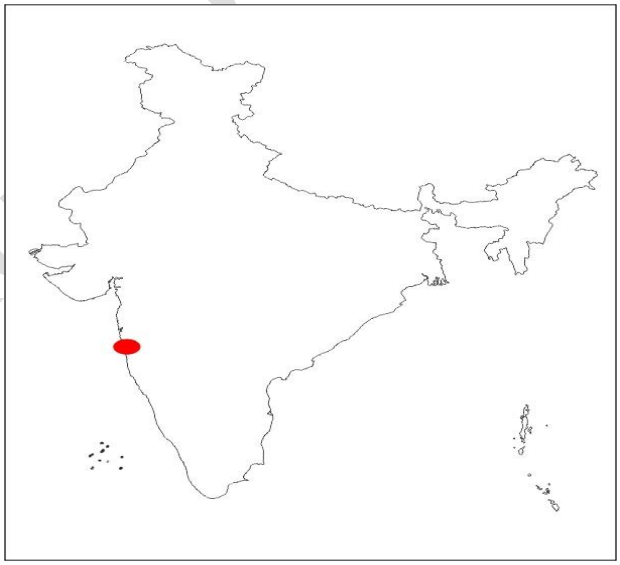

a) ಮಂಗಳೂರು

b) ಕೊಚ್ಚಿ

c) ಮರ್ಮಗೋವ

d) ನವಶೇವಾ

56. ಭಾರತದ ನಕಾಶೆಯಲ್ಲಿ ಗುರುತಿಸಿರುವ ಬಂದರುಗಳನ್ನು ಹೆಸರಿಸಿ.

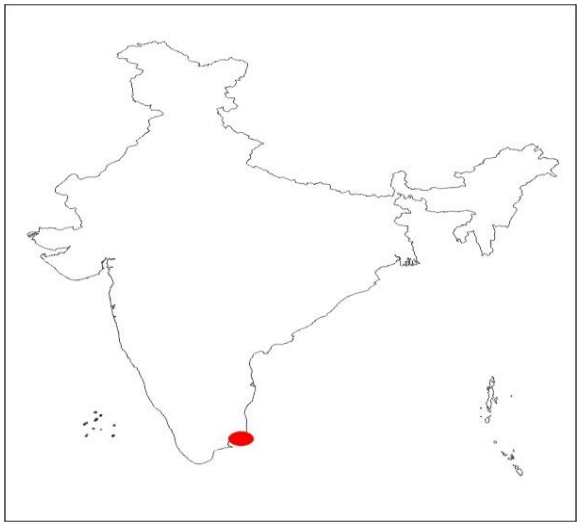

a) ಮಂಗಳೂರು

b) ತುತಕುಡಿ

c) ಎನ್ನೋರ್

d) ಚೆನ್ನೈ

prasanth kumar royal's

57. ಭಾರತದ ನಕಾಶೆಯಲ್ಲಿ ಗುರುತಿಸಿರುವ ಬಂದರುಗಳನ್ನು ಹೆಸರಿಸಿ.

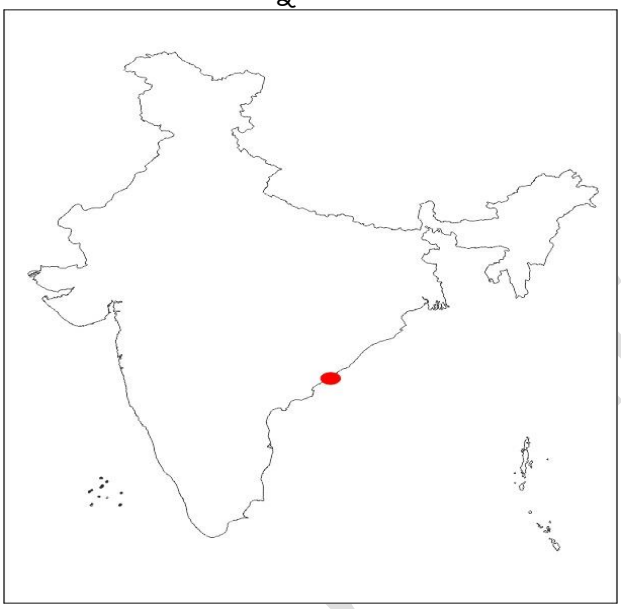

a) ಹಾಲ್ದಿಯಾ

b) ಎನ್ನೋರ್

c) ವಿಶಾಖಪಟ್ಟಣ

d) ಪರಾದೀಪ್

58. ಭಾರತದ ನಕ್ಷೆಯಲ್ಲಿ ಇರುವ ಪ್ರದೇಶ ಯಾವುದು?

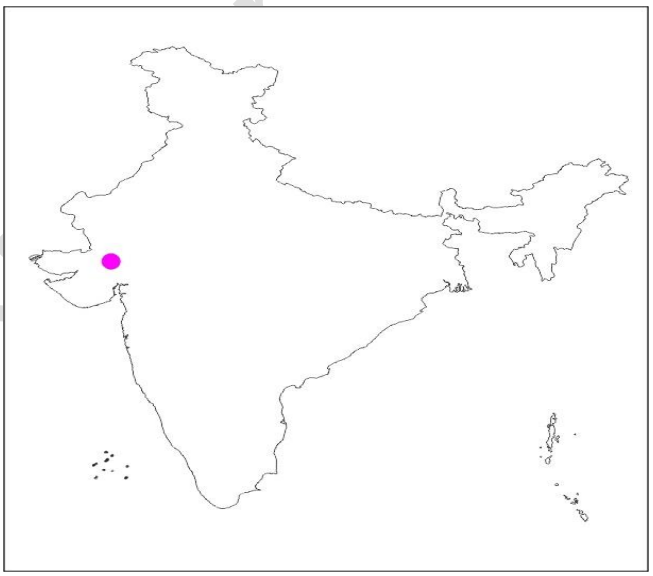

a) ಅಹಮದಾಬಾದ್

b) ಮುಂಬೈ

c) ಅಲಹಾಬಾದ್

d) ಸೂರತ್

59. ಭಾರತದ ನಕ್ಷೆಯಲ್ಲಿ ಇರುವ ಪ್ರದೇಶ ಯಾವುದು?

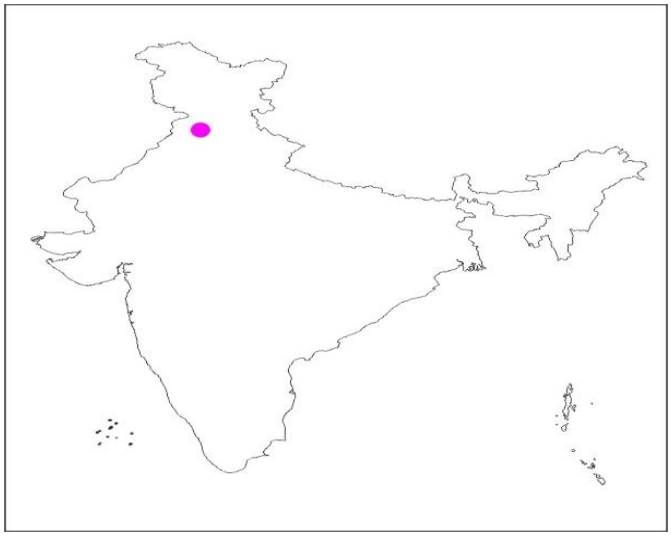

a) ಅಮೃತಸರ

b) ಮುಂಬೈ

c) ಹರಿಯಾಣ

d) ದೆಹಲಿ

prasanth kumar royals

60. ಭಾರತದ ನಕ್ಷೆಯಲ್ಲಿ ಇರುವ ಪ್ರದೇಶ ಯಾವುದು?

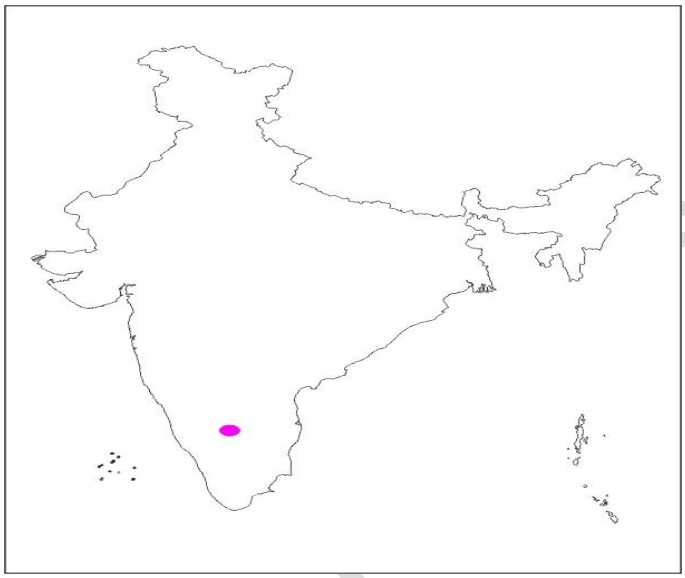

a) ಬೆಂಗಳೂರು

b) ಮುಂಬೈ

c) ಚೆನ್ನೈ

d) ಕೊಚ್ಚಿ

61. ಭಾರತದ ನಕ್ಷೆಯಲ್ಲಿ ಇರುವ ಪ್ರದೇಶ ಯಾವುದು?

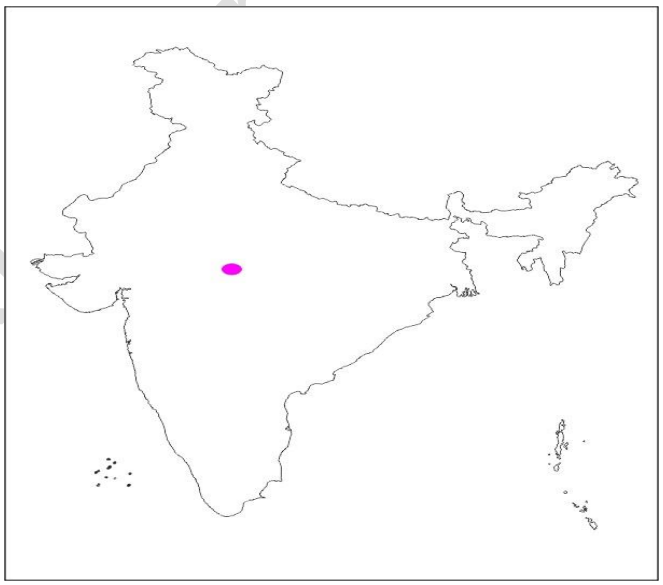

a) ಭೂಪಾಲ್

b) ಮುಂಬೈ

c) ಅಲಹಾಬಾದ್

d) ದೆಹಲಿ

62. ಭಾರತದ ನಕ್ಷೆಯಲ್ಲಿ ಇರುವ ಪ್ರದೇಶ ಯಾವುದು?

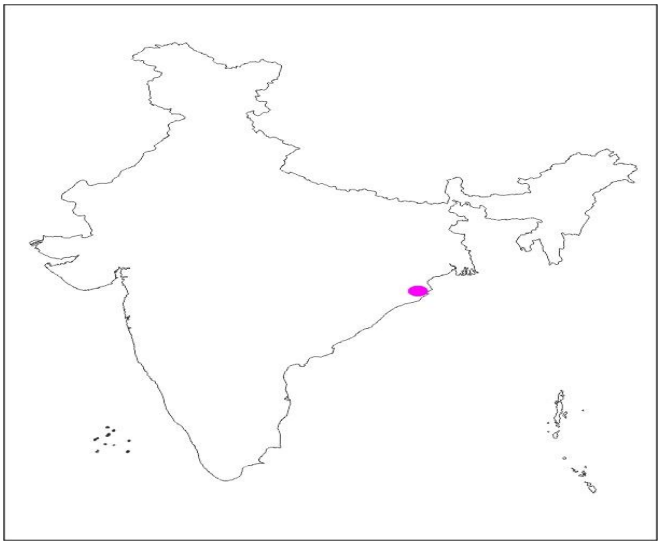

a) ಭೂಪಾಲ್

b) ಭುವನೇಶ್ವರ್

c) ಅಲಹಾಬಾದ್

d) ಕಲ್ಕತ್ತಾ

prasanth kumar royal's

63. ಭಾರತದ ನಕ್ಷೆಯಲ್ಲಿ ಇರುವ ಪ್ರದೇಶ ಯಾವುದು?

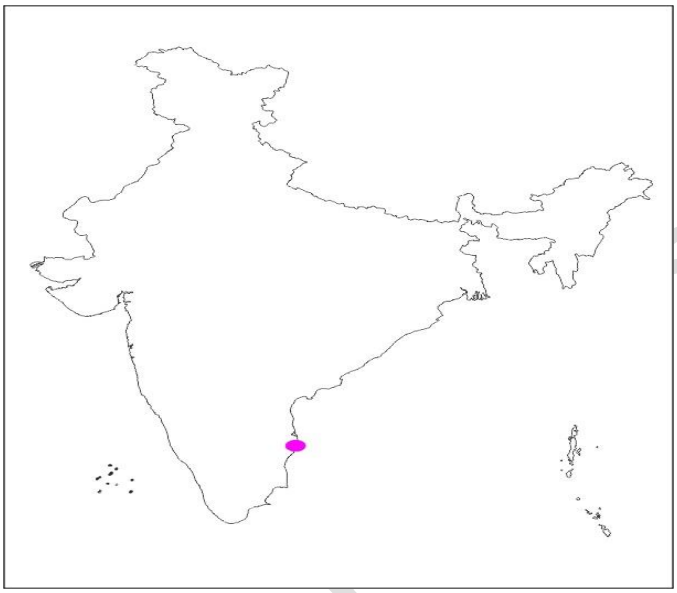

a) ಕೊಯಮತ್ತೂರು

b) ಚೆನ್ನೈ

c) ವಿಶಾಖಪಟ್ಟಣ

d) ಮಧುರೈ

64. ಭಾರತದ ನಕ್ಷೆಯಲ್ಲಿ ಇರುವ ಪ್ರದೇಶ ಯಾವುದು?

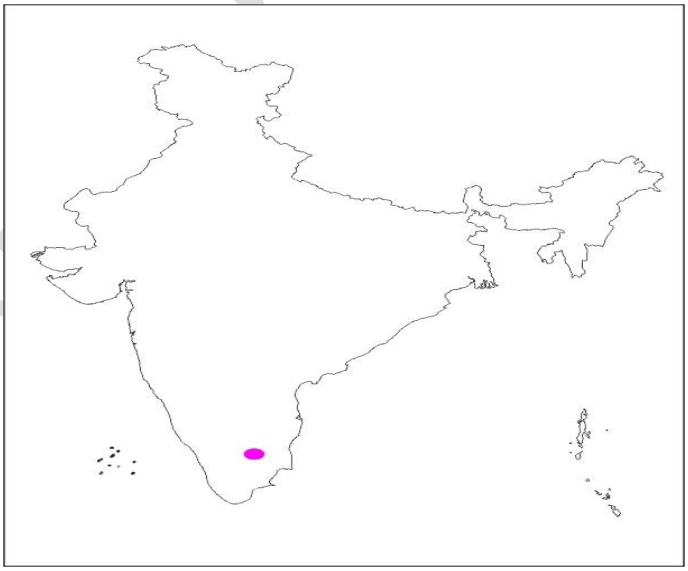

a) ಕೊಯಮತ್ತೂರು

b) ಚೆನ್ನೈ

c) ವಿಶಾಖಪಟ್ಟಣ

d) ಮಧುರೈ

65. ಭಾರತದ ನಕ್ಷೆಯಲ್ಲಿ ಇರುವ ಪ್ರದೇಶ ಯಾವುದು?

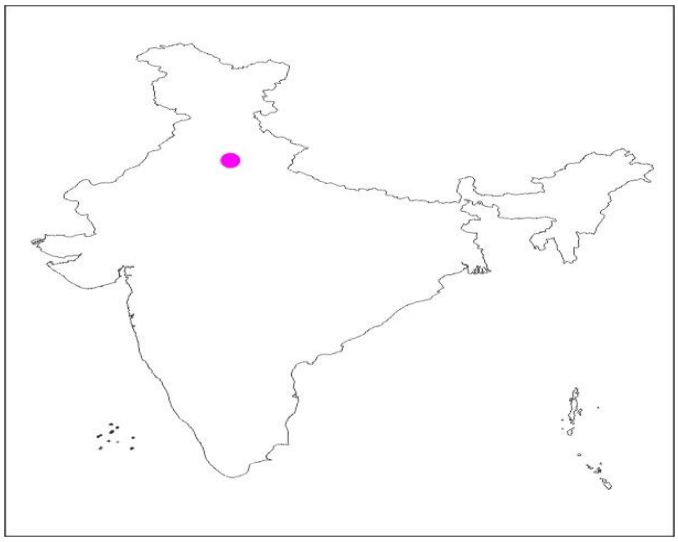

a) ದೆಹಲಿ

b) ಡೆಹರದೂನ್

c) ಅಮೃತಸರ

d) ಭೂಪಾಲ್

prasanth kumar royal's

66. ಭಾರತದ ನಕ್ಷೆಯಲ್ಲಿ ಇರುವ ಪ್ರದೇಶ ಯಾವುದು?

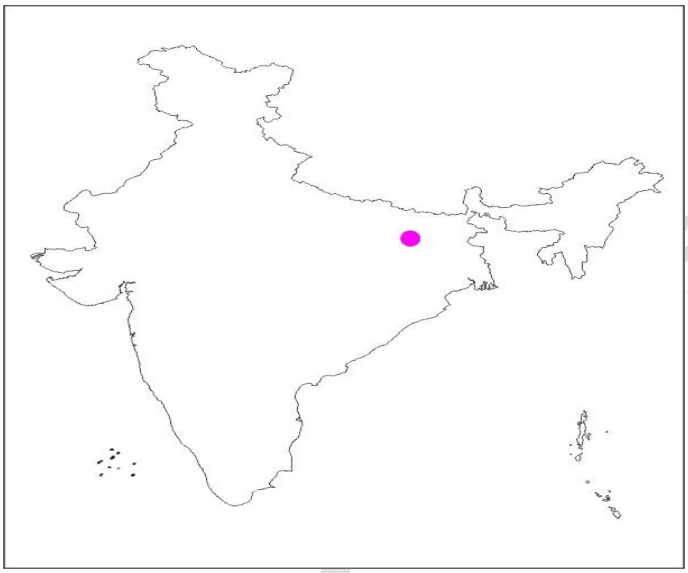

a) ಗಯಾ

b) ಡೆಹರದೂನ್

c) ಗೌಹಾಟಿ

d) ಭೂಪಾಲ್

67. ಭಾರತದ ನಕ್ಷೆಯಲ್ಲಿ ಗುರುತಿಸಿರುವ ಈ ಪ್ರದೇಶ ಯಾವುದು?

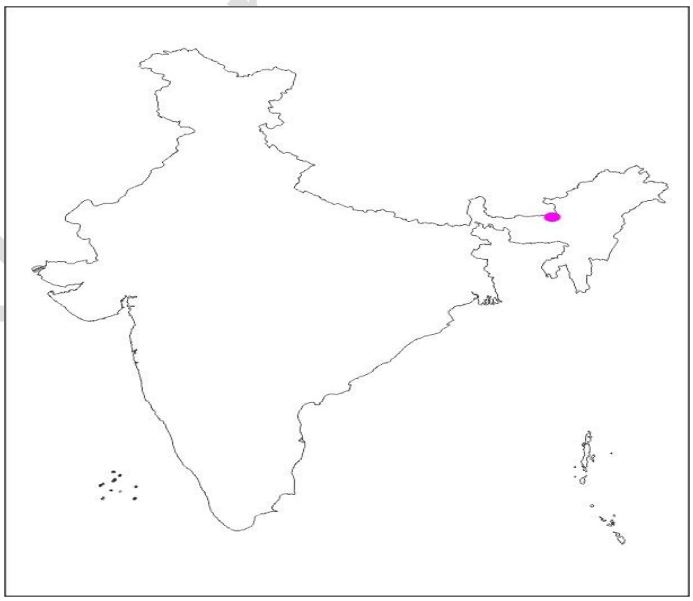

a) ಗೌಹಾಟೀ

b) ಗಯಾ

c) ಭೂಪಾಲ್

d) ಕಲ್ಕತ್ತಾ

68. ಭಾರತ ನಕ್ಷೆಯಲ್ಲಿ ಗುರುತಿಸಿರುವ ಈ ಪ್ರದೇಶ ಯಾವುದು?

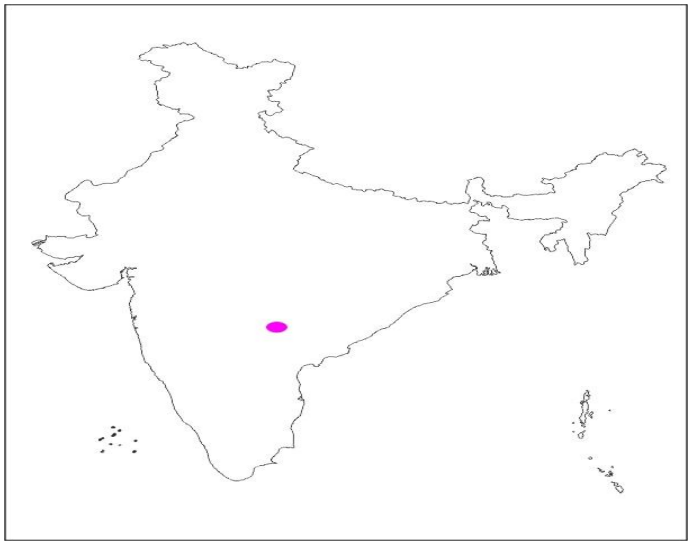

a) ಹೈದರಾಬಾದ್

b) ವಿಶಾಖಪಟ್ಟಣ

c) ಚೆನ್ನೈ

d) ಬೆಂಗಳೂರು

prasanth kumar royal's

69. ಈ ಭಾರತ ನಕ್ಷೆಯಲ್ಲಿ ಗುರುತಿಸಿರುವ ಪ್ರದೇಶ ಯಾವುದು?

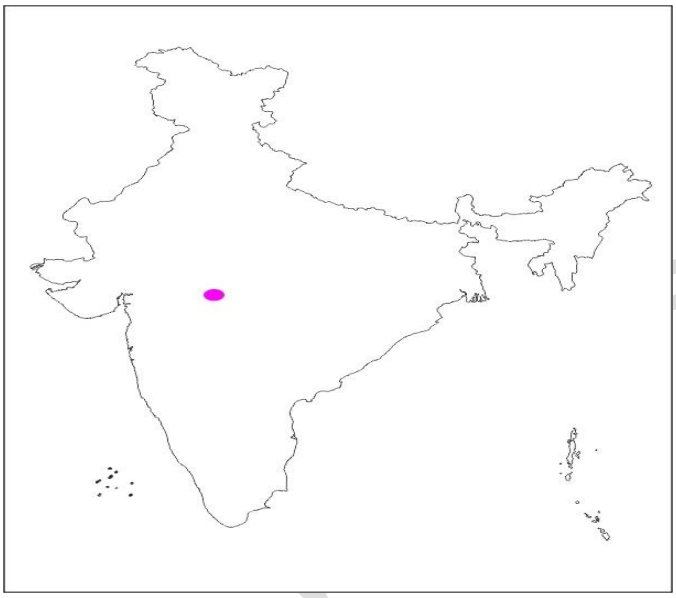

a) ಇಂದೋರ್

b) ಹೈದರಾಬಾದ್

c) ಮುಂಬೈ

d) ಅಹಮದಾಬಾದ್

70. ಈ ಭಾರತ ನಕ್ಷೆಯಲ್ಲಿ ಗುರುತಿಸಿರುವ ಪ್ರದೇಶ ಯಾವುದು?

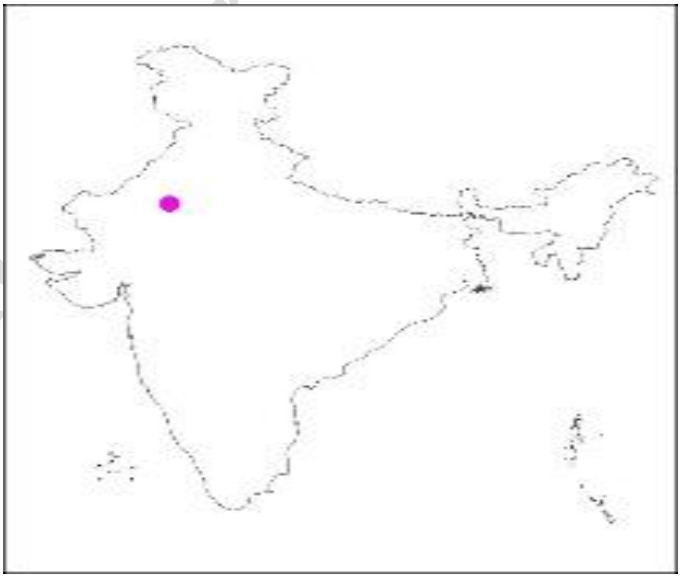

a) ಜೈಪುರ್

b) ದೆಹಲಿ

c) ಜಮ್ಮು

d) ಅಹಮದಾಬಾದ್

71. ಈ ಭಾರತ ನಕ್ಷೆಯಲ್ಲಿ ಗುರುತಿಸಿರುವ ಪ್ರದೇಶ ಯಾವುದು?

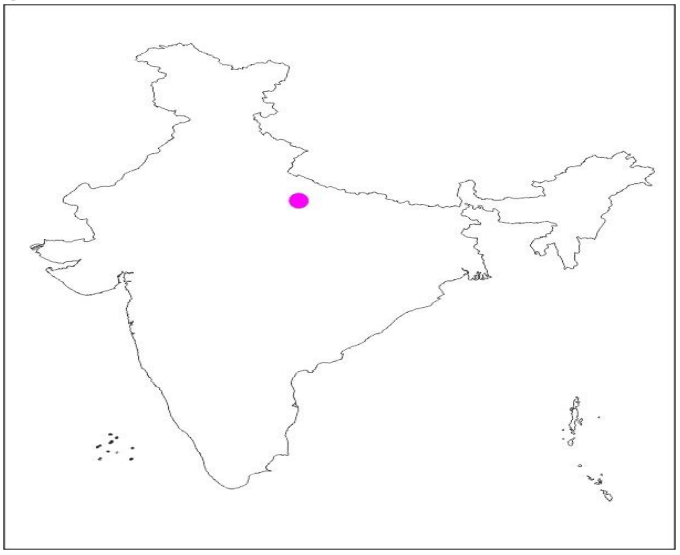

a) ಲಕ್ನೋ

b) ದೆಹಲಿ

c) ಅಲಹಾಬಾದ್

d) ಅಹಮದಾಬಾದ್

prasanth kumar royal's

72. ಈ ಭಾರತ ನಕ್ಷೆಯಲ್ಲಿ ಗುರುತಿಸಿರುವ ಪ್ರದೇಶ ಯಾವುದು?

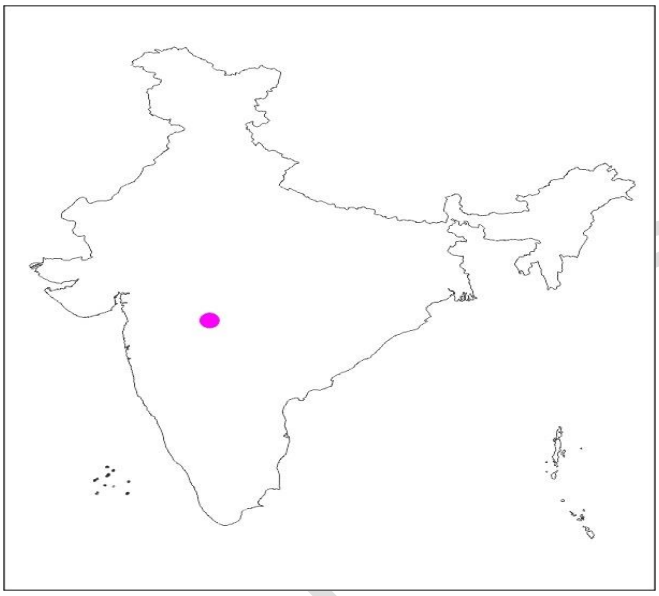

a) ಲಕ್ನೋ

b) ನಾಗಪುರ

c) ಅಲಹಾಬಾದ್

d) ಭೂಪಾಲ್

73. ಈ ಭಾರತ ನಕ್ಷೆಯಲ್ಲಿ ಗುರುತಿಸಿರುವ ಪ್ರದೇಶ ಯಾವುದು?

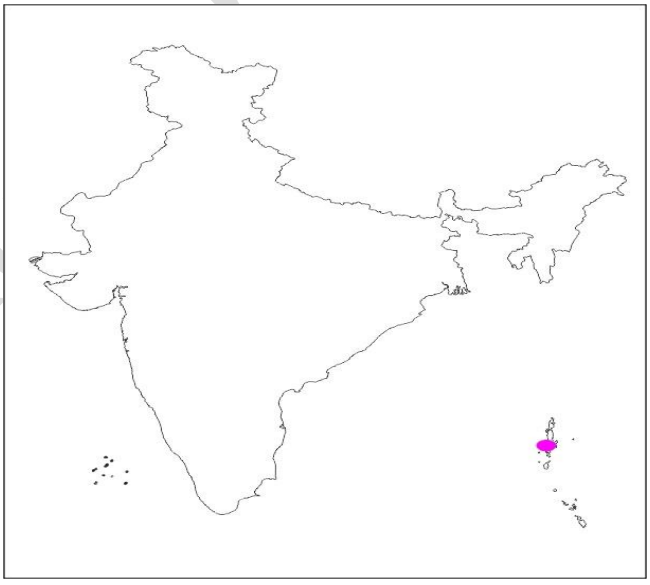

a) ಪೋರ್ಟ್ ಬ್ಲೇರ್

b) ನಾಗಪುರ

c) ಕಲ್ಕತ್ತಾ

d) ಭೂಪಾಲ್

74. ಈ ಭಾರತ ನಕ್ಷೆಯಲ್ಲಿ ಗುರುತಿಸಿರುವ ಪ್ರದೇಶ ಯಾವುದು?

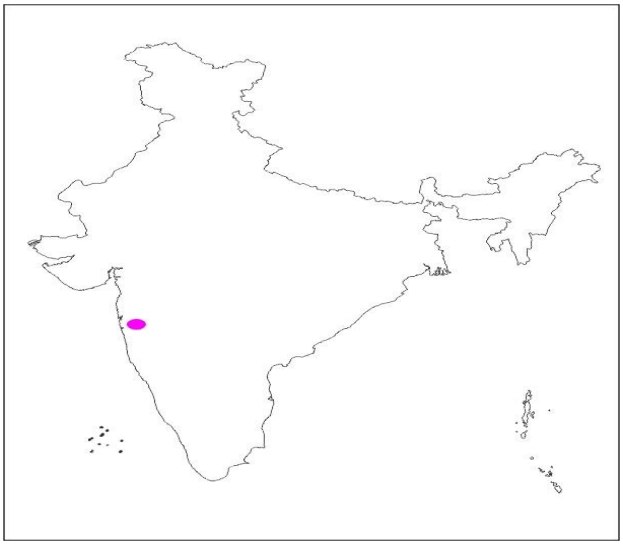

a) ಪುಣೆ

b) ಬಾಂಬೆ

c) ಭೂಪಾಲ್

d) ಸೂರತ್

prasanth kumar royal's

75. ಈ ಭಾರತ ನಕ್ಷೆಯಲ್ಲಿ ಗುರುತಿಸಿರುವ ಪ್ರದೇಶ ಯಾವುದು?

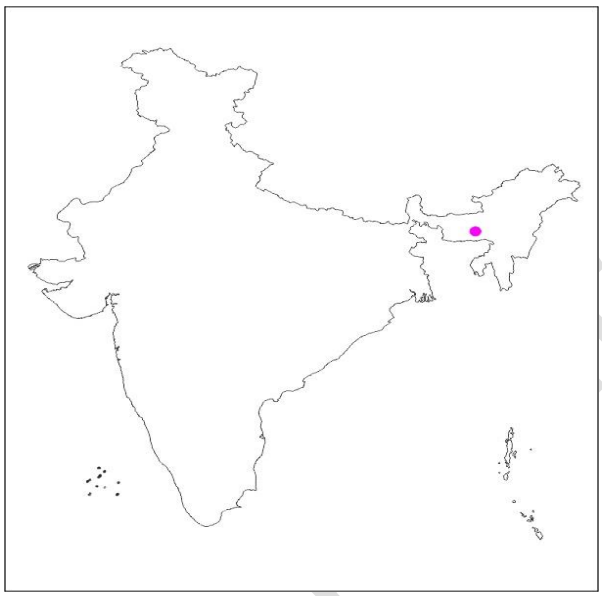

a) ದೇಹರದೂನ್

b) ಬಾಂಬೆ

c) ಕಲ್ಕತ್ತಾ

d) ಶಿಲ್ಲಾಂಗ್

76. ಈ ಭಾರತ ನಕ್ಷೆಯಲ್ಲಿ ಗುರುತಿಸಿರುವ ಪ್ರದೇಶ ಯಾವುದು?

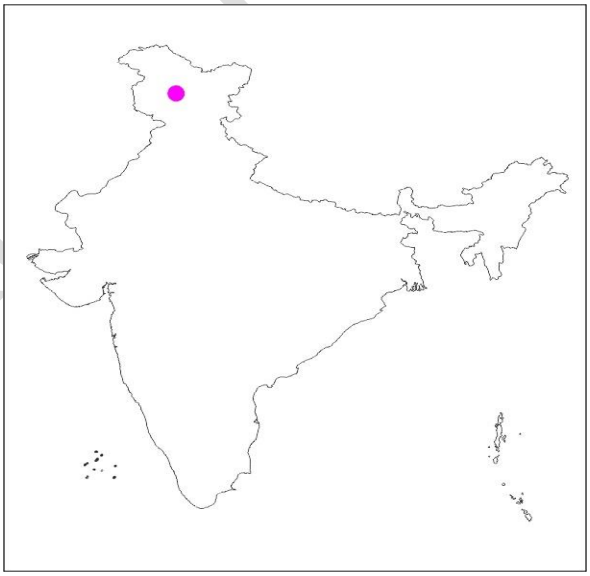

a) ಶ್ರೀನಗರ

b) ದೆಹಲಿ

c) ಕುಪ್ವಾರಾ

d) ಶಿಲ್ಲಾಂಗ್

77. ಈ ಭಾರತ ನಕ್ಷೆಯಲ್ಲಿ ಗುರುತಿಸಿರುವ ಪ್ರದೇಶ ಯಾವುದು?

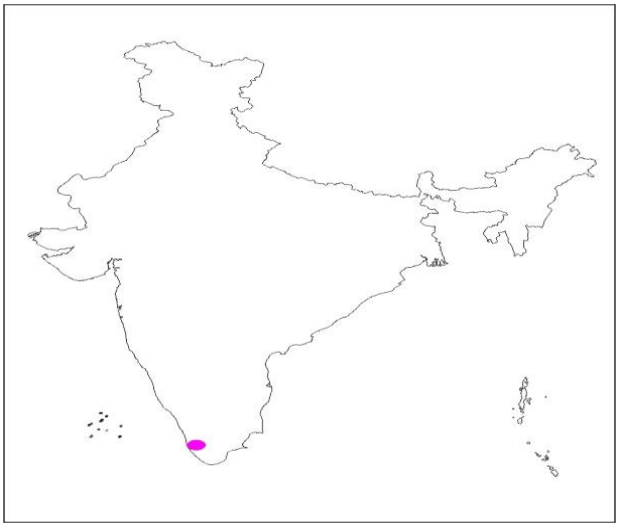

a) ತಿರುವನಂತಪುರಂ

b) ಬೆಂಗಳೂರು

c) ಚೆನ್ನೈ

d) ಮೈಸೂರು

prasanth kumar royal's

78. ಈ ಭಾರತದ ನಕ್ಷೆಯಲ್ಲಿ ಗುರುಸಿದ ಸ್ಥಳ

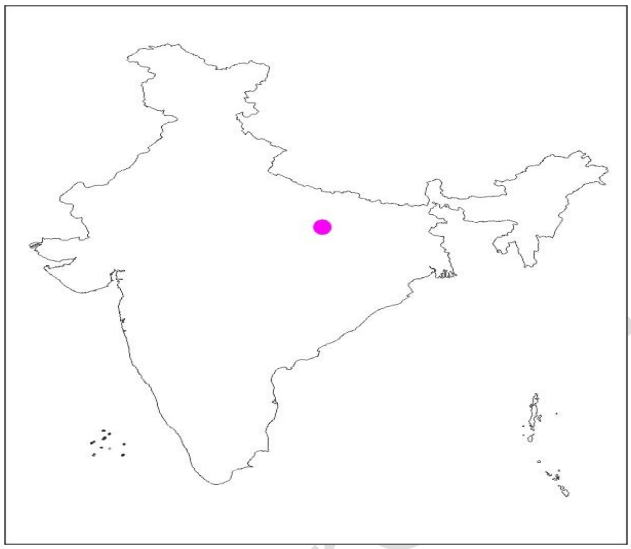

a) ವಾರಣಾಸಿ

b) ದೆಹಲಿ

c) ಅಹಮದಾಬಾದ್

d) ಭೂಪಾಲ್

prasanth kumar royals